1) – Zonguldak Ereğli'de demir - çelik fabrikasının kurulması
– Jeotermal santralin Denizli Sarayköy'e kurulması
– Rüzgârlardan elektrik elde etmek için türbinlerin İzmir, Manisa, Hatay, Muğla gibi illere kurulması
Yukarıda verilen örnekler, sanayi tesislerinin kuruluş yeri seçiminde aşağıdakilerden hangisinin öncelikle dikkate alındığını gösterir?
A) Ulaşım faaliyetlerinin
B) İklimin elverişliliğinin
C) Ham maddeye yakınlık
D) Nüfus miktarının
E) Enerji kaynağına yakınlık

2) Türkiye'de sanayi faaliyetleri ile ilgili aşağıdakilerden hangisi söylenemez?
A) Sanayi faaliyetlerinin yoğun olduğu yerler göç almıştır.
B) Sanayi faaliyetlerinin İstanbul, Kocaeli ve Bursa'da gelişmesinin temel nedeni ham maddeye yakınlıktır.
C) Ülkemizin doğusunda sanayinin yoğunlaşmaması yer şekillerinden kaynaklanır.
D) Türkiye'nin iç bölgelerinde tahıla bağlı sanayi faaliyetleri yaygındır.
E) Türkiye'nin büyükşehirlerinin çevresinde kümes hayvancılığına dayalı sanayi tesisleri gelişmiştir.

3) Ham maddenin, fabrikaların kuruluş yerinin belirlenmesinde;
I. kolay bozulabilir olması,
II. imalat sırasında büyük kayıpların olması,
III. değerinin taşıma maliyetinden düşük olması
özelliklerinden hangileri etkili olmuştur?
A) Yalnız I B) Yalnız III C) I ve II
D) II ve III E) I, II ve III

4) Organize sanayi bölgelerinin kuruluşunda aşağıdaki faktörlerden hangisi etkili olmamıştır?
A) Sanayinin uygun alanlarda yapılandırılması
B) Düzenli kentleşmenin sağlanması
C) Çevresel sorunların önlenmesi
D) İmalat sanayisinin belirli bir plana göre yerleştirilip geliştirilmesi
E) Enerji tüketiminin bir sahada toplanılması

5) Aşağıdakilerden hangisi Türkiye'de sanayi tesislerinin dağılışında etkili olan beşerî faktörlerden biri değildir?
A) Ulaşım B) Pazar C) Enerji
D) Teşvik E) Küresel karar

6) Türkiye'de cumhuriyet döneminden günümüze birçok sanayi dalında önemli gelişmeler olmuş ve bunlardan bazılarından elde edilen ürünler dış ülkelere satılmaya başlanmıştır.
Buna göre aşağıdaki sanayi dallarından hangisi bunlardan biri değildir?
A) Konserve B) Kâğıt C) Gıda
D) Mobilya E) Seramik

7) Aşağıda verilen sanayi kolları ve en fazla toplandığı yer eşleştirmelerinden hangisi yanlıştır?
A) Süt Endüstrisi- Kuzeydoğu Anadolu
B) Çay Endüstrisi- Doğu Karadeniz
C) Konservecilik - Akdeniz kıyı şeridi
D) Tekstil - Kuzeybatı Anadolu
E) Halı - Gaziantep

8) Temel besin maddeleri üreten tesisler içerisinde un, makarna, irmik ve bisküvi endüstrisi Türkiye'de oldukça yaygın ve gelişmiştir.
Buna göre aşağıda verilen merkezlerden hangisinde bu sanayi kolu daha fazla gelişmiştir?
A) Samsun
B) Konya
C) Sivas
D) Edirne
E) Rize

9) Türkiye'de endüstrinin gelişmesinde çeşitli faktörlerin etkisi vardır.
Buna göre aşağıda verilenlerden hangisi sanayimizin gelişmesi için ülkemizde daha kolay sağlanır?
A) Enerji kaynakları
B) Ham madde
C) Gerekli sermaye
D) Ulaşım ve pazar olanağı
E) Teknik eleman ve işçi

cografyahocasi.com

10) Türkiye'de dayanıklı tüketim malzemeleri üretim tesisleri Manisa, İzmir, İstanbul, Ankara illerimizde gelişmiştir.
Yukarıda açıklanan ilişki aşağıda verilen il- sanayi eşleştirmelerinden hangisinde yoktur?
A) Bursa, Balıkesir - Konserve
B) Ordu, Giresun - Fındık
C) Kütahya, Bilecik - Seramik
D) K. Maraş, G. Antep - Dokuma
E) Rize, Trabzon - Kâğıt

11)

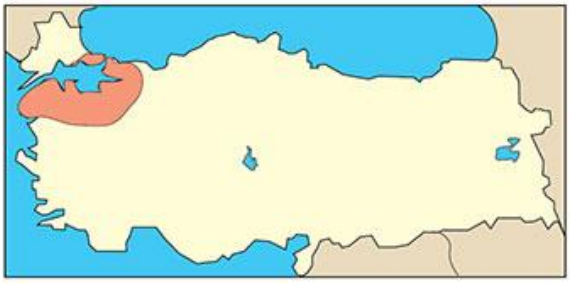

Haritada gölgelendirilerek gösterilen alanda aşağıdaki sanayi tesislerinden hangisi bulunmaz?
A) Ferro Krom
B) Cam
C) Katar (Tren)
D) Otomotiv
E) Konserve

12)

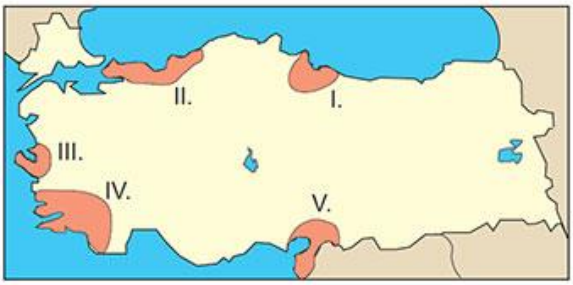

Yukarıdaki haritada numaralandırılarak verilen merkezlerden hangisi sanayi faaliyetlerinin yoğunlaştığı alanlardan biri olarak gösterilemez?
A) I B) II C) III D) IV E) V

13)

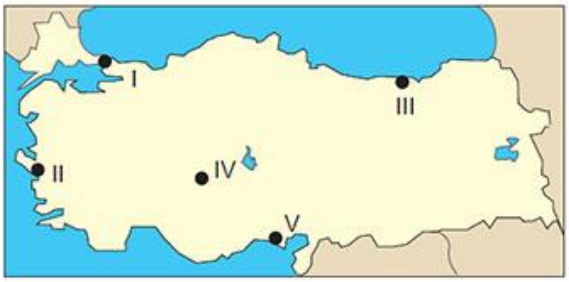

Yukarıdaki haritada numaralandırılarak gösterilen alanlardan hangisi burada bulunmayan bir sanayi kolu ile eşleştirilmiştir?
A) I. Otomotiv fabrikası
B) II. Sigara fabrikası
C) III. Şeker fabrikası
D) IV. Bisküvi fabrikası
E) V. Tekstil fabrikası

14) Aşağıda verilen bilgilerden hangisi yanlıştır?
A) Cam endüstrisinin ham maddesi topraktaki silis ve kalsiyum karbonattır.
B) Çağdaş anlamda ilk cam fabrikası 1936 İstanbul Paşabahçe'de kurulmuştur.
C) Cam fabrikalarında çeşitli cam ve kristal eşya üretimi yapılır.
D) Taşa ve toprağa dayalı sanayi kolları arasında seramik endüstrisi de yer alır.
E) Seramiğin ham maddesi ülkemizde yaygın olarak bulunan kaliteli manganez ve kildir.

15) Sanayileşmenin dağılışını etkileyen önemli bir faktör de pazarlamadır. Pazarlanacak bir ürünün üretimi tüketiciye ne kadar yakın olursa maliyeti o kadar düşük olur.
Buna göre aşağıdakilerden hangisi pazara yakınlığın esas alınarak kurulduğu sanayi tesisleri arasında yer alır?
A) Demir - Çelik işletmeleri
B) Maden işleme tesisleri
C) Kümes hayvancılığı entegre tesisleri
D) Bitkisel yağ sanayisi
E) Kâğıt sanayisi

cografyahocasi.com