## YERYÜZÜNDEKİ BİTKİ ÖRTÜSÜ

**1)**

**Yukarıdaki haritada dağılışı gösterilen doğal bitki örtüsü aşağıdakilerden hangisidir?**
A) Muson ormanları B) Yağmur ormanları
C) Savan D) Karma ormanlar
E) Tayga ormanları

**2)** I. Muson
II. Okyanusal
III. Ekvatoral
IV. Step
V. Tundra
**Yukarıdaki iklim bölgelerinden hangisinde kurak bir dönem yaşanmasına rağmen orman örtüsü gelişmiştir?**
A) I B) II C) III D) IV E) V

**3) Aşağıdaki iklim bölgelerinin hangisindeki bitkilerin derinlere doğru kök sistemleri <u>en fazla</u> gelişmiştir?**
A) Ekvatoral B) Okyanusal C) Çöl
D) Muson E) Savan

**4)** "Buralarda yıl boyu bağıl nem yüksektir, yaz aylarında sıcaklık 27°C'yi pek aşmaz." **diyen bir kişinin yaşadığı bölgede hâkim olan bitki örtüsü aşağıdakilerden hangisi olabilir?**
A) Karışık ormanlar B) Çayır
C) Maki D) Bozkır
E) Muson ormanları

**5) İklim özellikleri göz önüne alındığında, Avrupa Kıtası'nda aşağıdaki doğal bitki örtüsü türlerinden hangisine <u>rastlanmaz</u>?**
A) Tundra B) Tayga ormanları
C) Karma ormanlar D) Savan
E) Maki

**6)**

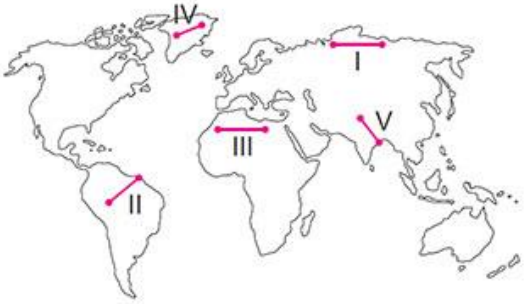


**Yukarıdaki haritada gösterilen doğrultuların hangisinde yükselti farkına bağlı olarak <u>daha fazla</u> bitki çeşidi görülmesi beklenir?**
A) I B) II C) III D) IV E) V

**7)**

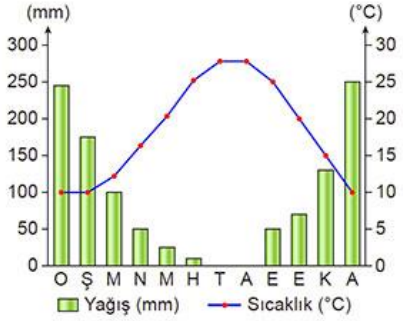


**Yukarıda sıcaklık ve yağış grafiği verilen iklim bölgesinde görülen bitki örtüsü aşağıdakilerden hangisidir?**
A) Maki B) Step
C) Yağmur ormanı D) Tundra
E) Savan

**8)**

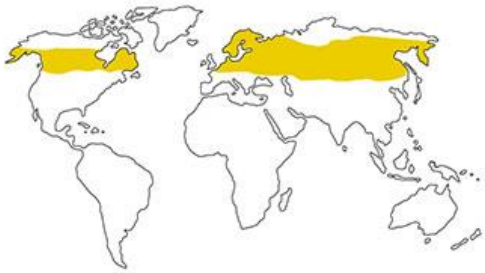

**Yukarıdaki haritada dağılışı gösterilen bitki örtüsü aşağıdakilerden hangisidir?**
A) Savan B) Yağmur ormanları
C) Kaktüs D) Tayga ormanları
E) Muson ormanları

cografyahocasi.com

**9) Akdeniz'e kıyısı olan ülkeler ile Kuzey Amerika'daki Kaliforniya çevresinde benzer bitki topluluklarının görülmesi aşağıdakilerden hangisiyle açıklanabilir?**
A) Yazlarının kurak geçmesiyle
B) Yükseltilerinin aynı olmasıyla
C) Deniz kıyısında yer almalarıyla
D) Aynı iklime sahip olmalarıyla
E) Ortalama yıllık yağış miktarlarının aynı olmasıyla

**10)** – Tropikal iklim bölgelerinde görülen uzun boylu ot topluluklarıdır.
– Bu ormanların görüldüğü yerler her mevsim yağışlı olup yıllık yağış miktarı 2000 mm'nin üzerindedir.
– Daima yeşil yapraklı olan bu bitkiler kuraklığa dayanıklı oldukları hâlde soğuğa karşı fazla dayanıklı değildir.
– Sert karasal iklimin nemli alanlarında görülen bu ormanlar, sıcaklığın düşük olmasından dolayı iğne yapraklı ağaçlardan oluşur.
**Yukarıda bazı tanıtıcı özellikleri verilen bitki toplulukları arasında aşağıdakilerden hangisi <u>yoktur</u>?**
A) Savan
B) Yağmur ormanları
C) Tundra
D) Maki
E) Tayga ormanları

**11)** Bir coğrafyacı, gittiği bölgede sadece seyrek ve cılız yosunlarla cüce çalıların bulunduğu tundraların yaygın olduğunu belirlemiştir.
**Buna göre coğrafyacı bölge iklimini nasıl tanımlamalıdır?**
A) Sıcak ve yıl boyunca yağışlı
B) Yazları kurak ve kışları yağışlı
C) Soğuk ve yıl boyunca yağışlı
D) Soğuk ve yazları yağışlı
E) Sıcak ve yıl boyunca kurak

**12) Mersin, keçiboynuzu, koca yemiş ve defne hangi doğal bitki topluluğunun elemanlarıdır?**
A) Maki
B) Bozkır
C) Tundra
D) Savan
E) Tayga

**13)** – Bu bitki topluluğuna Güney Amerika'da pampa, Kuzey Amerika'da preri adı verilmiştir.
– İlkbaharda birdenbire yeşerir. Bu sırada her yer ot, çimen, çiçeklerle bezenir. Otlar kimi yerde diz boyu olur, kimi yerde bunu da geçer. Bu yemyeşil, renk renk görünüş bahar sonunda değişmeye başlar, kırlar sararıp solmaya doğru gider.
– Yerine göre çeşitlilik gösteren bu bitki örtüsü, yaz yağışlarının, sıcaklığa göre az bulunduğu, böylece ağaçların, yumuşak çayırların yetişmesini sağlayacak nemliliğin yeteri kadar bulunmadığı yerlerde meydana gelmiştir.
**Yukarıda bazı tanıtıcı özellikleri verilen bitki topluluğu aşağıdakilerden hangisidir?**
A) Bozkır
B) Savan
C) Tundra
D) Maki
E) Çayır

**14)**

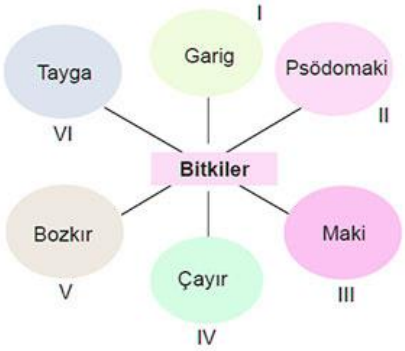


**Yukarıdaki bitki türlerinden hangileri ot formasyonunda yer almaktadır?**
A) Yalnız I
B) II ve III
C) IV ve V
D) III, IV ve V
E) IV, V ve VI

**15)** Aşağıda bir iklim tipinin bazı özellikleri verilmiştir.
– 0° - 10° enlemleri arasında görülür.
– Yıllık sıcaklık ortalaması 25°C'nin üstündedir.
– Yıllık ve günlük sıcaklık farkı en az olan iklimdir.
– Yağış rejimi düzenlidir.
– Yıllık yağış miktarı 2000 mm'nin üstündedir.
**Bu iklim tipinin bitki topluluğu aşağıdakilerden hangisidir?**
A) Yağmur ormanları
B) Karma ormanlar
C) Tayga ormanları
D) Muson ormanları
E) İğne yapraklı ormanlar

cografyahocasi.com