Biyoçeşitlilik

1. Tropikal yağmur ormanları biyomunda bulunan bitkilerin kökleri yüzeye yakın yayılış gösterirken, çöl biyomundaki bitkilerin kökleri ise daha derinde yayılış gösterir.

Bu durum iki biyomun aşağıdaki özelliklerinden hangisinin farklı olmasından kaynaklanmaktadır?

A) Yer şekilleri B) Yağış C) Toprak türü D)Rüzgar E)Jeolojik yapı

2. Tropikal iklim tipinin etkili olduğu bölgelerde biyoçeşitlilik fazladır.

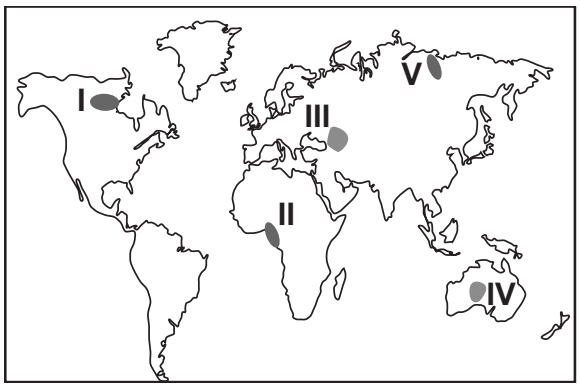

Buna göre harita üzerinde numaralandırılarak gösterilen yerlerden hangisinde biyoçeşitliliğin daha zengin olması beklenir?

A) I B) II C) III D) IV E) V

3. I. Canlıların birbirleriyle ve cansız çevre ile olan ilişkileri sonucu ortaya çıkan bütündür.

II. Benzer bitki ve hayvan topluluklarını barındıran bölgelerdir.

III. Bir türün bireylerinin yaşam alanıdır.

Numaralandırılarak verilen açıklamaların karşılığı aşağıdakilerden hangisinde doğru verilmiştir?

	I	II	III
A)	Ekosistem	Biyom	Habitat
B)	Popülasyon	Biyom	Biyoçeşitlilik
C)	Habitat	Popülasyon	Ekosistem
D)	Ekosistem	Biyoçeşitlilik	Biyom
E)	Biyom	Habitat	Popülasyon

4. Ekvatordan kutuplara doğru gidildikçe biyoçeşitlilik genel olarak azalır.

Bu durumun nedeni aşağıdakilerden hangisidir?

A) Yağış miktarının azalması
B) Kalıcı kar sınırının azalması
C) Ortalama yükseltinin değişmesi
D) Güneşlenme süresinin uzaması
E) Güneş ışınlarının geliş açısının azalması

5. Karasal biyomların sınıflandırılmasındaki en büyük etken iklim özellikleridir.

Aşağıda verilen karasal biyomlardan hangisi daha sıcak bir iklimde görülür?

A) Savan biyomu
B) Kutup biyomu
C) Tundra biyomu
D) Karasal iklim biyomu
E) Ilıman çayır biyomu

6. Coğrafya öğretmeni, 11. sınıf öğrencilerinden Ece, Zeynep ve Furkan'a karasal biyomlar ve özellikleri konusunu ödev olarak vermiştir. Öğrenciler ödevlerini sunarken;

Ece: Araştırma alanında düşük sıcaklıktan dolayı canlı yaşamın çok az olduğunu,

Zeynep: Araştırma alanında uzun boylu otlar yaygın olduğunu, bu bitki örtüsü içinde küme küme ağaçların da bulunduğunu,

Furkan: Araştırma alanında daha çok tibet öküzü, kar tavşanı ve kartal türlerinin yaşadığını ifade etmiştir.

Bu ifadelere bakılarak Ece, Zeynep ve Furkan hangi biyomları araştırmışlardır?

	Ece	Zeynep	Furkan
A)	Tundra	Çöl	Kutup
B)	Çalı	Savan	Dağ
C)	Kutup	Savan	Dağ
D)	Çöl	Savan	Kutup
E)	Kutup	Çalı	Tundra

ÖLÇME, DEĞERLENDİRME VE SINAV HİZMETLERİ GENEL MÜDÜRLÜĞÜ

Biyoçeşitlilik

7. Kara ve denizlerin dağılımı, canlıların yeryüzüne yayılışını etkiler. Bazı su yolları deniz ve okyanuslar arasında canlı türlerinin geçişine olanak sağlar.

Buna göre Akdeniz, Kızıldeniz ve Hint Okyanusu arasında canlı türlerin geçişlerine olanak sağlayan su yolu aşağıdakilerden hangisidir?

A) Panama Kanalı
B) Hürmüz Boğazı
C) Süveyş Kanalı
D) Bering Boğazı
E) Macellan Boğazı

8. **Aşağıdakilerden hangisi biyoçeşitlilik üzerinde etkili olan fiziki faktörlerden biridir?**

A) Baraj yapımı
B) Hızlı nüfus artışı
C) Çevre Kirliliği
D) İklim değişiklikleri
E) Enerji nakil hatları

9.

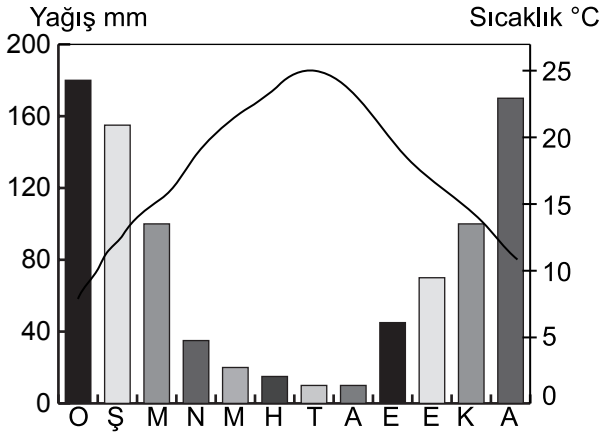

Yukarıda sıcaklık ve yağış grafiği verilen iklim bölgesindeki biyom ile ilgili olarak;

I. Bitki türleri yaz kuraklığına dayanıklıdır.

II. Bitki örtüsü uzun boylu ve geniş yapraklı sık ormanlardır.

III. Kışların ılık geçmesi biyoçeşitliliği olumlu etkiler

ifadelerden hangileri söylenebilir?

A) Yalnız I B) Yalnız II C) I ve II
D) I ve III E) II ve III

10. Canlılar yaşamlarını sürdürebilmek için doğal çevrede meydana gelen değişikliklere uygun özellikler kazanırlar.

Aşağıda verilenlerden hangisinde böyle bir durumun yaşandığı <u>söylenemez</u>?

A) Kutup ayılarının kış uykusuna yatmaları
B) Çöl bitkilerinin kısa boylu ve dikenli olması
C) Fokların derilerinin altında kalın bir yağ tabakası olması
D) Develerin kirpiklerinin gözlerini kapatacak kadar uzun olması
E) Kuzey Yarım Küre'de kuşların kış aylarında güneye göç etmesi

11. **Aşağıda verilen karasal biyomlar içerisinde biyoçeşitliliği en zengin olanı hangisidir?**

A) Dağ biyomu
B) Çalı biyomu
C) Savan biyomu
D) Yağmur ormanları biyomu
E) İğne yapraklı ormanlar biyomu

12. Biyoçeşitlilik konusunda araştırma yapan bir bilim adamı araştırma alanında kara yosunları ve likenlerin yaygın olduğunu gözlemlemiştir.

Bu bilgiye göre araştırmacının hangi karasal biyom üzerinde araştırma yaptığı söylenebilir?

A) Tundra
B) Savan
C) Çöl
D) Dağ
E) Kutup

ÖLÇME, DEĞERLENDİRME VE SINAV HİZMETLERİ GENEL MÜDÜRLÜĞÜ

KAZANIM KAVRAMA TESTİ

Adı :.....
Soyadı :.....
Sınıf :.....
NO : .....

1	2	3	4	5	6	7	8	9	10	11	12
A	A	A	A	A	A	A	A	A	A	A	A
B	B	B	B	B	B	B	B	B	B	B	B
C	C	C	C	C	C	C	C	C	C	C	C
D	D	D	D	D	D	D	D	D	D	D	D
E	E	E	E	E	E	E	E	E	E	E	E

Doğru :.....
Yanlış :.....
Boş :.....
Puan : .....

Canlıların Yeryüzüne Dağılışını Etkileyen Faktörler

1. Türkiye'nin bitki çeşitliliği Avrupa Kıtası'ndan daha fazladır.

I. Yer şekilleri

II. Yeraltı kaynakları

III. İklim çeşitliliği

IV. Kullandığı saat dilimi

Bu durumun oluşmasında yukarıda verilenlerden hangileri etkili olmuştur?

A) I ve II B) I ve III C) II ve III
D) II ve IV E) III ve IV

2. Haritada biyoçeşitliliğin az olduğu bazı bölgeler verilmiştir

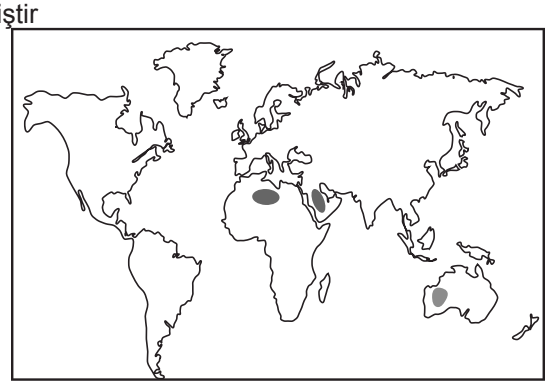

Haritada gösterilen alanlarda biyoçeşitliliğin az olmasında aşağıdakilerden hangisi belirleyici olmuştur?

A) Eğim
B) Mutlak nem
C) Okyanus akıntıları
D) Yükselti
E) Rüzgarlar

3. **Sıcak ve soğuk çöllerde biyoçeşitliliği olumsuz yönde etkileyen faktörler aşağıdakilerden hangisinde doğru olarak verilmiştir?**

	Sıcak çöl	Soğuk çöl
A)	Kuraklık	Düşük sıcaklık
B)	Yükselti	Yer şekilleri
C)	Yer şekilleri	Yağış
D)	Kuraklık	Rüzgar
E)	Enlem	Yükselti

4. Tropikal yağmur ormanları canlı çeşitliliği bakımından Dünya'nın en zengin alanlarındandır.

Aşağıdakilerden hangisi bu durumun nedenidir?

A) Eğim ve yükselti
B) Basınç ve rüzgar
C) Bakı ve eğim
D) Yağış ve sıcaklık
E) Yükselti ve engebe

5. Afrika ve Amerika kıtaları arasında Atlas Okyanusu bulunmasına rağmen bu kıtalarda aynı tür kara canlılarına ait fosillere rastlanmaktadır.

Bu durumun temel nedeni aşağıdakilerden hangisidir?

A) Yer şekilleri
B) Kıtaların kayması
C) İklim çeşitliliği
D) Okyanusların konumu
E) Beşeri faktörler

6. Coğrafi keşifler sonucunda Amerika Kıtası'nda bulunan tütün, patates ve domates gibi bazı bitkiler Avrupa Kıtası'na götürülerek tarımı yaygınlaştırılmıştır.

Bu durum canlıların dağılışı üzerinde aşağıdakilerden hangisinin etkisine örnek gösterilebilir?

A) İklim değişikliklerinin
B) Mikroorganizmalarının
C) Kıtaların kaymasının
D) Yer şekillerinin
E) Beşeri etkilerin

ÖLÇME, DEĞERLENDİRME VE SINAV HİZMETLERİ GENEL MÜDÜRLÜĞÜ

Canlıların Yeryüzüne Dağılışını Etkileyen Faktörler

7. Yapılan araştırmalar türlerin yok olmasının geçmişe göre günümüzde daha fazla olduğu göstermektedir.

Bu durumun sebepleri arasında aşağıdakilerden hangisi gösterilemez?

A) Sanayi ve teknolojideki gelişmelerin
B) Doğal kaynak tüketiminin artmasının
C) Milli park sayılarının artmasının
D) Kentleşme hızının artmasının
E) Hızlı nüfus artışının

8. Canlıların doğal ortamda yaşamlarını devam ettirmesi için çevreye uyum sağlamasına adaptasyon denir.

Aşağıda verilenlerden hangisi bu duruma örnek olarak gösterilemez?

A) Çöl bitkilerinin kök yapılarının gelişmiş olması
B) Ekvatoral bölgedeki bitkilerin geniş yapraklı olması
C) Yağışlı dönemlerde bitkilerin daha fazla gelişmesi
D) Develerin bacaklarının ve boyunlarının vücutlarına göre uzun olması
E) Kutuplar çevresinde yaşayan canlıların derilerinin altında kalın yağ tabakası bulunması

9. Sanayi tesislerinin ve ticari faaliyetlerin yoğun olduğu yerlerde insanın canlıların yaşam ortamına etkisi daha fazladır.

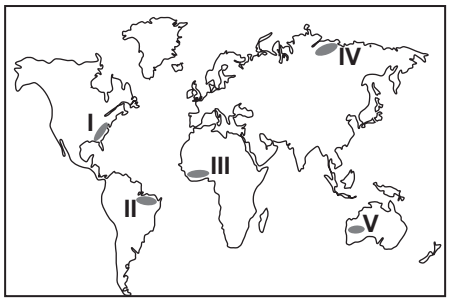

Buna göre haritada numaralandırılarak verilen alanlardan hangisinde bu durum daha fazla görülür?

A) I B) II C) III D) IV E) V

10. Bir bölgedeki biyoçeşitlilik üzerinde etkili olan faktörlerden birisi de beşeri faaliyetleridir.

I. Milli parkların sayılarının artması
II. Tarımda kimyasal gübre kullanımının artması
III. Bilinçsiz avlanmanın önlenmesi
IV. Sanayide fosil yakıt kullanımının artması

Buna göre yukarıdakilerden hangileri beşeri faaliyetlerin biyoçeşitlilik üzerindeki olumsuz etkisini azaltmak için yapılacak çalışmalara örnek gösterilemez?

A) I ve II B) I ve III C) II ve III
D) II ve IV E) III ve IV

11. **Canlıların yeryüzüne dağılışını etkileyen şartlar dikkate alındığında;**

I. Amazon havzası
II.Grönland adası
III.Serengeti ulusal parkı

yukarıda verilen yerlerden hangilerinde canlı çeşitliliği en azdır?

A) Yalnız I B) Yalnız II C) Yalnız III
D) I ve II E) I ve III

12. **Aşağıda verilen akarsulardan hangisinde canlı tür ve sayısı daha fazladır?**

A) Fırat B) Çoruh C) Kongo
D) Kızılırmak E) Dicle

ÖLÇME, DEĞERLENDİRME VE SINAV HİZMETLERİ GENEL MÜDÜRLÜĞÜ

KAZANIM KAVRAMA TESTİ

Adı :.....
Soyadı :.....
Sınıf :.....
NO : .....

1	2	3	4	5	6	7	8	9	10	11	12
A	A	A	A	A	A	A	A	A	A	A	A
B	B	B	B	B	B	B	B	B	B	B	B
C	C	C	C	C	C	C	C	C	C	C	C
D	D	D	D	D	D	D	D	D	D	D	D
E	E	E	E	E	E	E	E	E	E	E	E

Doğru :.....
Yanlış :.....
Boş :.....
Puan : .....

Ekosistemlerin İşleyişi, Enerji Akışı ve Madde Döngüsü

1. Tatlı ve tuzlu su biyomlarında birbirinden farklı özelliklere sahip canlılar yaşamaktadır.

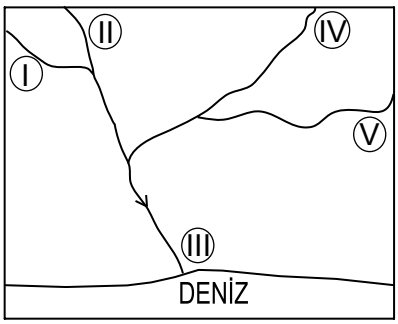

Buna göre şekilde numaralandırılarak verilen yerlerin hangisinde biyoçeşitliliğin daha fazla olması beklenir?

A) I B) II C) III D) IV E) V

2. I. Fotosentez
II. Solunum
III. Fotoliz
IV. Oksidasyon

Yukarıda verilen olaylardan hangileri sonucunda oksijen açığa çıkar?

A) I ve II B) II ve III C) I ve III
D) II ve IV E) III ve IV

3.

Akarsu	Yıllık Toplam Yağış	Yağış Rejimi	En Yağışlı Mevsim
I.	1020 mm	Düzenli	Kış
II.	1020 mm	Düzenli	Kış

Yukarıdaki tabloda iki farklı akarsu havzasına ait yağış özellikleri verilmiştir. Hidroelektrik potansiyelin I. akarsu üzerinde II. akarsudan daha fazla olduğu bilinmektedir.

Bu durum bu iki akarsu havzasının hangi özelliklerinin farklı olmasından kaynaklanmaktadır?

A) İklim B) Bakı C) Bitki örtüsü
D) Toprak E) Yer şekilleri

4. Besin zincirinin ilk halkasını oluşturan üreticiler, inorganik maddeleri organik maddelere çevirerek canlı yaşamı için gerekli olan enerji ve besin maddelerini üretirler.

Aşağıdaki canlılardan hangisi doğal çevrede üretici konumundadır?

A) Mantarlar B) Kuşlar C) Bakteriler
D) Bitkiler E) Sürüngenler

5. **Aşağıdakilerden hangisi ekosistemlerin genel özelliklerinden biri <u>değildir</u>?**

A) Zamanla değişikliğe uğrar.
B) İçerisinde bir hareketlilik vardır.
C) Canlı ve cansız varlıklardan oluşur.
D) Diğer ekosistemlerle çevrilidir.
E) Sınırları sabit ve kesindir.

6.

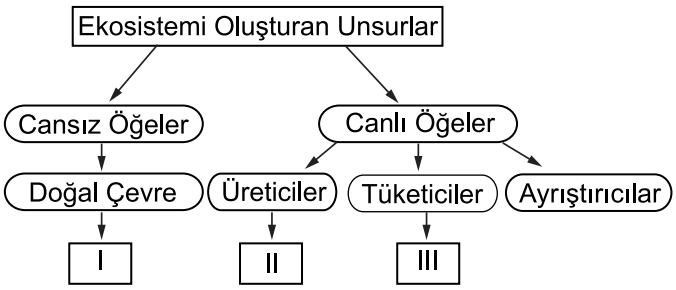

Yukarıdaki şemada boş bırakılan I, II ve III numaralı alanlar aşağıda verilenlerden hangileri ile tamamlanmalıdır?

	I	II	III
A)	Sıcaklık	Karga	Tavşan
B)	Yağış	Yeşil bitkiler	Aslan
C)	Bakteriler	Algler	Kurt
D)	Işık	Mantarlar	Serçe
E)	Kaktüs	Güneş	Geyik

ÖLÇME, DEĞERLENDİRME VE SINAV HİZMETLERİ GENEL MÜDÜRLÜĞÜ

Ekosistemlerin İşleyişi, Enerji Akışı ve Madde Döngüsü

7. Suyun atmosfer, litosfer ve hidrosfer içerisindeki hareketine su döngüsü denir.

Aşağıdakilerden hangisi bu döngünün aşamalarından biri değildir?

A) Buharlaşma
B) Terleme
C) Yoğuşma
D) Yağış
E) Başkalaşım

8. **Enerji akışının genel özellikleri göz önüne alındığında canlılar arasında enerji akışının hangi yolla gerçekleştiği söylenebilir?**

A) Ölen canlıların ayrıştırılması
B) Canlıların birbirleriyle beslenmesi
C) Ayrıştırıcılar tarafından ısı yayılması
D) Ayrıştırıcıların atmosfere karbondioksit vermesi
E) Güneşt enerjisinin doğrudan bütün canlılara geçmesi

9. **Karasal su ekosistemleri aşağıdakilerden hangisinde bir arada verilmiştir?**

A) Göl - Bataklık - Akarsu
B) Bataklık - Deniz - Göl
C) Okyanus - Akarsu - Göl
D) Deniz - Bataklık - Buzullar
E) Akarsu - Deniz - Okyanus

10. Birinci beslenme seviyesinin yoğun olduğu yerlerde enerji akışı hızlıdır.

Buna göre, aşağıdaki yerlerden hangisinde enerji akışının daha hızlı olması beklenir?

A) Sahra Çölü
B) Antartika kıtası
C) Himalaya dağları
D) Amazon havzası
E) Tibet platosu

11. Karbondioksit üretiminin fazla olduğu yerlerde oksijen tüketimi artar.

Bu durum aşağıda verilen ekonomik faaliyetlerden hangisinin yaygın olduğu yerlerde daha fazla görülür?

A) Sanayi
B) Ormancılık
C) Turizm
D) Ticaret
E) Tarım

12. **Su döngüsünü oluşturan aşamalardan olan buharlaşma aşağıdaki bölgelerden hangisinde daha hızlıdır?**

A) Kutup bölgesi
B) Ekvatoral bölge
C) Çöl bölgesi
D) Bataklık bölge
E) Dağlık bölge

ÖLÇME, DEĞERLENDİRME VE SINAV HİZMETLERİ GENEL MÜDÜRLÜĞÜ

KAZANIM KAVRAMA TESTİ

Adı :.....
Soyadı :.....
Sınıf :.....
NO : .....

1	2	3	4	5	6	7	8	9	10	11	12
A	A	A	A	A	A	A	A	A	A	A	A
B	B	B	B	B	B	B	B	B	B	B	B
C	C	C	C	C	C	C	C	C	C	C	C
D	D	D	D	D	D	D	D	D	D	D	D
E	E	E	E	E	E	E	E	E	E	E	E

Doğru :.....
Yanlış :.....
Boş :.....
Puan : .....

Nüfus Politikaları

1.

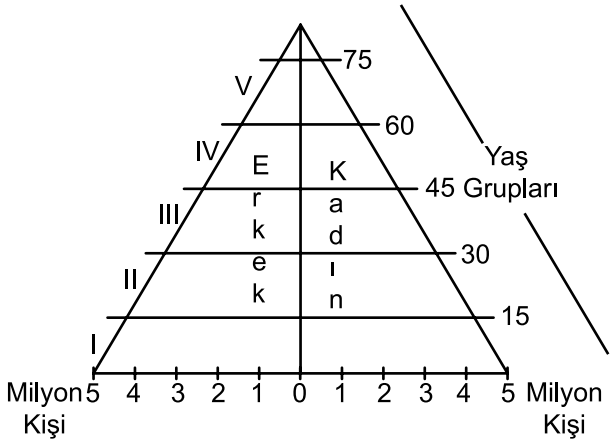

Yukarıdaki temsili nüfus pramidinde bazı yaş grupları numaralandırılarak gösterilmiştir.

Buna göre nüfus artış hızında meydana gelen değişim hakkında numaralandırılmış yerlerden hangisi bilgi verir?

A) I B) II C) III D) IV E) V

2. Nüfus artış hızını azaltmaya yönelik nüfus politikası uygulayan bir ülkenin aşağıdakilerden hangisini yapması uygun değildir?

A) Eğitim düzeyini yükseltmek
B) Evlenme yaşını düşürmek
C) Sağlık hizmetlerini iyileştirmek
D) Aile planlamasına önem vermek
E) Kadınların iş hayatına katılımını artırmak

3. 1950'li yıllara kadar Çin hükümeti nüfusu askeri güç olarak gördüğü için nüfus artış hızını arttırmaya yönelik politikalar uyguluyordu.1953 yılı nüfus sayımlarında nüfusu 583 milyon olarak açıklanınca nüfus artış hızını düşürücü politikalar uygulamaya başladı. Bunun için ilk önce şehirlerde doğum kontrol çalışmaları başlatmış ancak etkili olmamıştır. Nüfus artış hızı planlanandan daha yüksek çıkınca 1979'da aile başına tek çocuk sahibi olma zorunluluğu getirilmiştir.

Çin Hükümetinin bu uygulama ile aşağıdakilerden hangisini amaçladığı söylenebilir?

A) Etnik çeşitliliği artırmak
B) İş gücü ihtiyacını karşılamak
C) Aşırı nüfus artışını engellemek
D) Milli gelirin dengeli dağılımını sağlamak
E) Bölgeler arasındaki nüfus hareketlerini azaltmak

4. Bir ülkede uygulanan nüfus politikası sonucunda;

- Nüfusun yaş ortalamasında
- Kişi başına düşen milli gelir miktarında
- Tasarruf miktarında

artış olmuştur.

Buna göre bu ülke hangi nüfus politikasını izlemiştir?

A) Nüfusu artırıcı
B) Nüfus artış hızını azaltıcı
C) Nüfusun eğitim düzeyini artırıcı
D) Nüfusun nitelik ve niceliği artırıcı
E) Nüfusun ülke geneline dağılımını dengeleyici

5. Aşağıdaki ülkelerden hangisi iş gücüne duyduğu ihtiyaçtan dolayı nüfusu artırıcı yönde politika uygular?

A) Mısır B) Nijerya C) Somali
D) Kenya E) Almanya

6. 11. sınıf öğrencilerinden Ahmet ile Ayşe farklı iki ülkenin uyguladığı nüfus politikası hakkında arkadaşlarına bilgi vermişlerdir.
Ayşe ; Araştırma yaptığı ülkede doğum oranlarının fazla olduğunu ve mevcut ülke olanaklarının bu nüfus artışını kaldıramadığından nüfus artış hızını azaltıcı politikalar uygulamaktadır.
Ahmet ; 1990'lı yıllarda nüfus artış hızı çok düşük seviyelere inince ailelerin çok sayıda çocuk sahibi olmaları için teşvik kampanyalarına başlamıştır. Teşvik kampanyasıyla bir miktar artış sağlanmışsa da beklenen başarı elde edilememiştir. 2010 yılında ise nüfus artış hızı %0,05'e inmiştir.

Bu bilgiler doğrultusunda bu ülkeler aşağıdakilerden hangisinde doğru verilmiştir?

	Ayşe	Ahmet
A)	Kanada	Kenya
B)	Fransa	Endonezya
C)	Çin	Japonya
D)	Hindistan	Pakistan
E)	Malezya	Somali

ÖLÇME, DEĞERLENDİRME VE SINAV HİZMETLERİ GENEL MÜDÜRLÜĞÜ

Nüfus Politikaları

7. X ülkesinde uygulanan nüfus politikaları sonucunda ülkenin nüfus piramidindeki değişiklikler aşağıda gösterilmiştir.

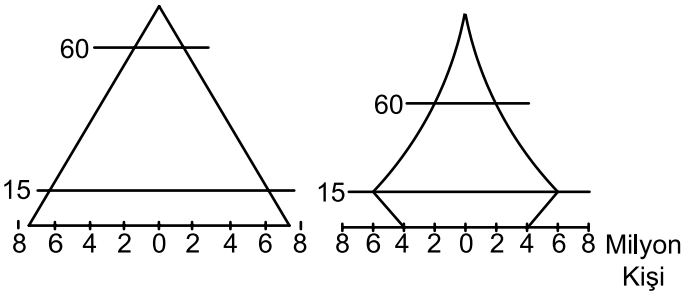

Bu ülkede aşağıdakilerden hangisinin artış gösterdiği söylenemez?

A) Nüfus artış hızının
B) Sağlık hizmetlerinin
C) Kalkınma düzeyinin
D) Yaşlı nüfus oranının
E) Eğitimli nüfus miktarının

8. Aşağıdaki tabloda bir ülkenin yıllara göre nüfusunun yaş grubu dağılımı verilmiştir.

Yıllar	Yaş Grupları			Yıllık Ort. Artış Oranı %	Toplam Nüfus (Milyon)
	0-14 (Milyon)	15-64 (Milyon)	65 + (Milyon)		
1960	30,2	64,2	5,7	0,92	94,3
1985	21,15	68,12	10,3	0,67	121,1
2010	13,2	63,7	23,1	0,05	128,1

Tablodaki bilgiler dikkate alındığında bu ülkenin yakın gelecekte hangi sorunla karşılaşması beklenir?

A) Etnik çatışma
B) Yurt dışına beyin göçü verme
C) İş gücüne ihtiyaç duyması
D) Gelir dağılımında düzensizlik
E) Çevre kirliliğinde artış

9. 21.Yüzyılın başlarında nüfus artış hızı durma noktasına gelen Japonya, doğal nüfus artışının sağlanması için çeşitli politikalar geliştirmiştir.

Günümüzde aşağıdaki ülkelerin hangisinde buna benzer bir durum yaşanmaktadır?

A) Etiyopya B) Nijerya C) Hindistan
D) Sudan E) Belçika

10. I. Nüfus artış hızını azaltma

II. Nüfus artış hızını yükseltme

Yukarıda numaralandırılarak verilen nüfus politikalarını uygulayan ülkeler aşağıdakilerin hangisinde doğru verilmiştir?

	I	II
A)	Hindistan	Mısır
B)	Belçika	İtalya
C)	Japonya	Mısır
D)	Çin	Japonya
E)	İtalya	Hindistan

11. Aşağıda üç farklı ülkeye ait nüfus piramitleri verilmiştir

I.

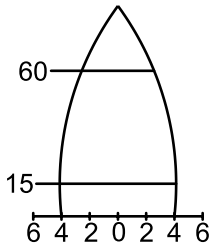

II.

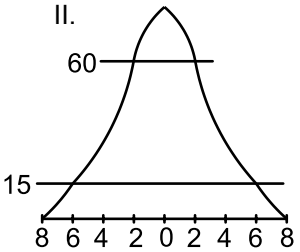

III.

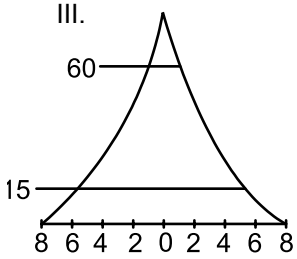

Bu ülkelerin hangilerinin nüfus artış hızını artırıcı politikalar uygulaması beklenir?

A) Yalnız I B) Yalnız II C) Yalnız III
D) I. ve II. E) II. ve III.

ÖLÇME, DEĞERLENDİRME VE SINAV HİZMETLERİ GENEL MÜDÜRLÜĞÜ

KAZANIM KAVRAMA TESTİ

Adı :.....
Soyadı :.....
Sınıf :.....
NO : .....

1	2	3	4	5	6	7	8	9	10	11	12
A	A	A	A	A	A	A	A	A	A	A	A
B	B	B	B	B	B	B	B	B	B	B	B
C	C	C	C	C	C	C	C	C	C	C	C
D	D	D	D	D	D	D	D	D	D	D	D
E	E	E	E	E	E	E	E	E	E	E	E

Doğru :.....
Yanlış :.....
Boş :.....
Puan : .....

Şehirler ve Etki Alanları

1. İlk şehirlerlerin akarsu kenarlarındaki düzlük alanlarda kurulduğu görülmektedir.

Buna göre bu şehirlerin ilk kurulduğu dönemde hangi ekonomik faaliyetin daha yaygın olduğu söylenebilir?

A) Ticaret B) Tarım C) Turizm
D) Hayvancılık E) Sanayi

2. **Nairobi, Paris ve Artvin şehirlerinin etki alanları aşağıdakilerden hangisinde doğru olarak verilmiştir?**

	Nairobi	Paris	Artvin
A)	Yerel	Bölgesel	Küresel
B)	Küresel	Bölgesel	Yerel
C)	Yerel	Küresel	Bölgesel
D)	Bölgesel	Küresel	Yerel
E)	Küresel	Yerel	Bölgesel

3. 20.yüzyılın sonlarında nüfusu 10 milyonu geçen şehir sayısı çok azken günümüzde nüfusu 10 milyonu geçen şehir sayısı oldukça fazladır.

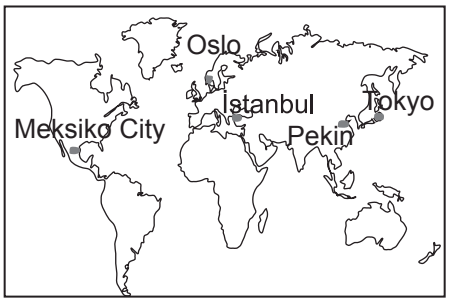

Harita üzerinde gösterilen şehirlerden hangisi günümüzde nüfusu 10 milyonu geçen şehirlerden değildir?

A)Tokyo B) İstanbul C) Meksico City
D) Oslo E) Pekin

4. Ekonomik faaliyetlerin gelişmiş olduğu bölgelerde şehirleşme oranı daha fazladır.

I. Orta Afrika
II. Batı Avrupa
III. Kuzey Amerika
V. Orta Doğu

Buna göre yukarıda verilen bölgelerden hangilerinde şehirleşme oranı diğerlerinden daha fazladır?

A) I. ve II. B) I. ve III. C) II. ve III.
D) II. ve IV. E) III. ve IV.

5. Bir şehrin etki alanı ekonomik, dini, sosyal, siyasi vb. bir çok alandaki özelliklerine göre değişir.

Buna göre aşağıdaki şehirlerden hangisinin küresel etkisi diğerlerine göre daha azdır?

A) Tiflis B) İstanbul C) Pekin
D) Tokyo E) Mekke

6. Borsa, bankacılık ve ticaret sektörlerinin yaygın olarak yapıldığı şehirlerin küresel etki alanı daha geniştir.

Aşağıdakilerden hangisi bu şehirlere örnek olarak gösterilebilir?

A) Sofya B) Lefkoşa C) St Petersburg
D) Lizbon E) New York

7. - Dini ve siyasi fonksiyonları sayesinde tarih boyunca küresel bir etkiye sahip olmuştur.
- Dünya'nın başkenti unvanına layık görülmüştür.

Yukarıda özellikleri verilen şehir hangisidir?

A) Marsilya B) Roma C) Barselona
D) Hamburg E) Dublin

ÖLÇME, DEĞERLENDİRME VE SINAV HİZMETLERİ GENEL MÜDÜRLÜĞÜ

Şehirler ve Etki Alanları

8. İlk şehirlerin kurulduğu alanların genel özellikleri,

- İklim koşulları insan yaşamına elverişlidir.
- Verimli tarım alanlarına sahiptir.
- Su kaynaklarına yakındır.
- Yer şekilleri sadedir.

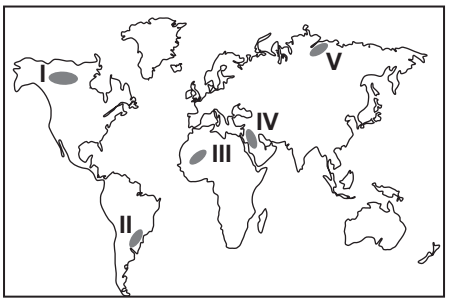

Buna göre harita üzerinde işaretlenmiş yerlerden hangisi ilk yerleşmelerin kurulduğu alanlardan biridir?

A) I B) II C) III D) IV E) V

9. Bir şehrin kurulup gelişmesinde bir veya birden fazla fonksiyonel özellik etkili olmuştur. Ancak bazı şehirlerin gelişiminde bir fonksiyon, diğer fonksiyonlardan daha ön plana çıkmaktadır.

Buna göre aşağıdaki şehir ve bu şehrin gelişiminde öne çıkan fonksiyon eşleştirmelerinden hangisi yanlıştır?

Şehir	Fonksiyon
A) Oxford	Eğitim
B) Rotterdam	Liman
C) Essen	Turizm
D) Mekke	Din
E) Hamburg	Liman

10. Aşağıdakilerden hangisi Fransa'nın Akdeniz kıyısında yer alan önemli liman şehridir?

A) Marsilya B) Hamburg C) Paris
D) Amsterdam E) Lizbon

11. Aşağıdaki şehirlerden hangisinin kurulup gelişmesinde madencilik faaliyetleri daha etkili olmuştur?

A) Paris B) Bursa C) Tokyo
D) Rotterdam E) Zonguldak

12. Manchester'ın bölgesel etki alanına sahip bir şehir olmasında aşağıdaki fonksiyonel özelliklerden hangisi daha etkili olmuştur?

A) Sanayi
B) Tarım
C) Hayvancılık
D) Eğitim
E) Sağlık

ÖLÇME, DEĞERLENDİRME VE SINAV HİZMETLERİ GENEL MÜDÜRLÜĞÜ

Üretim, Dağıtım ve Tüketimi Etkileyen; Doğal ve Beşeri Faktörler

1. Coğrafya öğretmeni Ahmet Bey 11.sınıf öğrencilerinden Zeynep, Ece ve Hamza'ya birer araştırma ödevi vermiş ve ödevlerini bir hafta sonra sunmalarını istemiştir.

Zeynep'in ödev konusu : Mal ve hizmetlerin tüketiciye ulaştırılması,

Ece'nin ödev konusu : Mal ve hizmetlerin sağlanması,

Hamza'ın ödev konusu : Mal ve hizmetlerin kullanımıdır.

Buna göre öğrencilerin araştıracakları konular aşağıdakilerden hangisinde doğru verilmiştir?

	Zeynep	Ece	Hamza
A)	Tüketim	Üretim	Dağıtım
B)	Üretim	Tüketim	Dağıtım
C)	Dağıtım	Tüketim	Üretim
D)	Üretim	Dağıtım	Tüketim
E)	Dağıtım	Üretim	Tüketim

2. Bazı üretim tesislerinin yer seçiminde hammadde kaynağına yakınlık temel etkendir.

Buna göre aşağıda verilen sanayi tesisi ve kurulduğu yer eşleştirmelerinden hangisi yukarıdaki genellemeye uymaz?

A) Zeytin yağı fabrikası - Aydın
B) Şeker fabrikası - Konya
C) Petrol rafinerisi - Batman
D) Pamuklu dokuma sanayisi - İstanbul
E) Ayçiçek yağı sanayisi - Edirne

3. **Aşağıdakilerden hangisi mal ve hizmetlerin sağlandığı yerlerden biridir?**

A) Tarım alanları
B) Fuar alanları
C) Semt pazarları
D) Mesire alanları
E) Milli parklar

4. Sanayi Devrimi'nin başladığı dönemlerde sanayi tesislerinin kuruluş yerini belirleyen önemli faktörlerden birisi enerji kaynaklarına yakınlık iken günümüzde bu durum önemli ölçüde değişmiştir.

Bu durumun temel nedeni aşağıdakilerden hangisidir?

A) Enerji nakil hatlarının gelişmesi
B) Enerji tüketiminin giderek artması
C) Sanayideki ürün çeşitliliğinin artması
D) Evlerde enerjiye daha çok ihtiyaç duyulması
E) Tükenmeyen enerji kullanımının yaygınlaşması

5. **Aşağıdakilerden hangisi üretim, tüketim ve dağıtımı etkileyen doğal faktörlerden biri değildir?**

A) Hammadde B) Yer şekilleri C) Ulaşım
D) İklim E) Su kaynakları

6. 2004 yılında yaşanan kuş gribi vakasına bağlı olarak kümes hayvanlarına olan talebin azalması sonucunda üretici firmalar bu durumdan olumsuz etkilenmişlerdir.

Bu durum aşağıdakilerden hangisine örnek olarak gösterilebilir?

A) Üretimin tüketime etkisi
B) Tüketici nüfusun azalması
C) Dağıtımın üretime etkisi
D) Tüketimin üretime etkisi
E) İnsanların alım gücünün düşmesi

ÖLÇME, DEĞERLENDİRME VE SINAV HİZMETLERİ GENEL MÜDÜRLÜĞÜ

Üretim, Dağıtım ve Tüketimi Etkileyen; Doğal ve Beşeri Faktörler

7. Bazı sanayi tesislerinin yer seçiminde enerji kaynağına yakınlık temel etkenlerden biridir.

Buna göre aşağıda verilen sanayi tesislerinden hangisi bu genellemeye örnek olarak gösterilebilir?

A) Tekstil fabrikaları
B) Boya fabrikaları
C) Meyve suyu fabrikaları
D) Demir-çelik fabrikaları
E) Ferro-krom fabrikaları

8. Grönland, Kanada'nın Kuzeyi ve Sibirya vb. alanlarda ekonomik faaliyetlerin yoğun olarak yapılmadığı alanlardandır.

Bu durum bu yerlerin hangi özelliğinden kaynaklanmaktadır?

A) Bitki örtüsünün zayıf olması
B) Yer şekillerinin sade olması
C) Toprak veriminin düşük olması
D) Su kaynaklarının yeterli olması
E) Sıcaklık değerlerinin düşük olması

9. I. Domuz gribi salgını nedeniyle turizm faaliyetlerinde aksamaların yaşanması
II. Deli dana hastalığı nedeniyle kırmızı ete olan talebin azalması
III. Deniz ürünlerinin dondurularak taşınması

Yukarıdakilerden hangileri tüketimin üretimi etkilediğine örnek olarak gösterilemez?

A) Yalnız I B) Yalnız II C) Yalnız III
D) I. ve II. E) I. ve III.

ÖLÇME, DEĞERLENDİRME VE SINAV HİZMETLERİ GENEL MÜDÜRLÜĞÜ

10. **Endüstri faaliyetleri ile çevre koşulları arasındaki etkileşimi inceleyen bilim dalı aşağıdakilerden hangisidir?**

A) Biyocoğrafya
B) Kartoğrafya
C) Teknocoğrafya
D) Klimatoloji
E) Ekonomik coğrafya

11. Ekonomik faaliyetlerin çeşitlenmesi, Dünya nüfusunun artış göstermesi vb. gelişmelerin yaşanmasıyla insanlar yeni su yolları arayışına girmiştir.

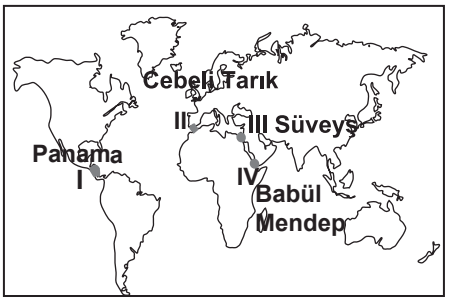

Haritada işaretlenerek verilen su yollarından hangileri insanların yukarıda bahsedilen sebeple oluşturdukları su yollarındandır?

A) I. ve II. B) I. ve III. C) II. ve III.
D) II. ve IV. E) III. ve IV.

12. **Aşağıdakilerden hangisi ekonomik faaliyetleri etkileyen beşeri faktörlerden biri değildir?**

A) Tarımsal faaliyetler
B) Teknolojik gelişmeler
C) Pazarlama olanakları
D) Ulaşım imkanları
E) İklim koşulları

KAZANIM KAVRAMA TESTİ

Adı :.....
Soyadı :.....
Sınıf :.....
NO : .....

1	2	3	4	5	6	7	8	9	10	11	12
A	A	A	A	A	A	A	A	A	A	A	A
B	B	B	B	B	B	B	B	B	B	B	B
C	C	C	C	C	C	C	C	C	C	C	C
D	D	D	D	D	D	D	D	D	D	D	D
E	E	E	E	E	E	E	E	E	E	E	E

Doğru :.....
Yanlış :.....
Boş :.....
Puan : .....

Doğal Kaynaklar

1. Doğada kendi kendine yenilenemeyen kaynaklara tükenebilir kaynaklar denir.

Buna göre aşağıdakilerden hangisi tükenebilir doğal kaynaklara örnek değildir?

A) Rüzgar
B) Doğalgaz
C) Madenler
D) Petrol
E) Kömür

2. Sanayi faaliyetlerinin yer seçiminde hammadde, enerji kaynağı, insan gücü, ulaşım, su kaynakları, iklim gibi bir çok doğal ve beşeri faktörler etkili olmaktdır.

Aşağıdaki sanayi kollarından hangisinin yer seçiminde enerji kaynağına yakınlık etkili olmuştur?

A) Un fabrikası
B) Demir-çelik fabrikası
C) Tekstil fabrikası
D) Seramik fabrikası
E) Kağıt fabrikası

3. Endüstri kuruluşları ülkelerin gelişmelerindeki önemli faktörlerden biridir.

Aşağıda verilen ülke ve bu ülkedeki endüstri türüne bakıldığında hangisinin ülke gelişimindeki rolünün en az olduğu söylenebilir?

A) ABD'de uçak sanayisi
B) Rusya'da silah sanayisi
C) Almanya'da otomotiv sanayisi
D) Japonya'da deniz ürünleri sanayisi
E) Rusya'da doğalgaz endüstrisi

4. Doğal kaynaklar tükenebilir ve tükenmeyen kaynaklar olarak ikiye ayrılır.(I) Rüzgar, güneş ve dalga tükenmeyen doğal kaynaklara örneklerdir.(II) Tükenmeyen doğal kaynakların çevreye olumsuz etkileri, tükenebilen kaynaklara göre daha fazladır.(III) Tükenebilir doğal kaynakların azalması, tükenmeyen doğal kaynakların önemini arttırmaktadır. (IV) Doğal kaynaklar ekonomik faaliyetlerin gelişmesi için son derece önemlidir.(V)

Yukarıda doğal kaynaklar ile ilgili numaralandırılarak verilen cümlelerden hangisi yanlıştır?

A) I. B) II. C) III. D) IV. E) V.

5. Ülkelerin gelişmişlikleri üzerinde sahip oldukları doğal kaynakların önemli etkisi vardır. Ancak bazı ülkelerin doğal kaynakları zengin olmadığı halde gelişmişlik seviyeleri yüksektir.

Aşağıdaki ülkelerden hangisi bu duruma örnek olarak gösterilebilir?

A) Almanya
B) Kanada
C) Rusya
D) Japonya
E) İngiltere

6. Doğal kaynak yönünden zengin olan bazı ülkeler bu kaynaklarını verimli olarak kulanamaz iken bazı ülkeler ise bu kaynaklarını verimli kullanmaları sebebiyle gelişimlerini sürdürmüşlerdir.

I. İngiltere - Taş kömürü
II. Almanya - Demir
III. Nijerya - Petrol
IV. Türkmenistan - Doğalgaz

Yukarıda verilen ülke ve doğal kaynak eşleştirmelerinden hangileri doğal kaynaklarını verimli kullanarak gelişmişlerdir?

A) I. ve II. B) I. ve III. C) II. ve III.
D) II. ve IV. E) III. ve IV.

ÖLÇME, DEĞERLENDİRME VE SINAV HİZMETLERİ GENEL MÜDÜRLÜĞÜ

Doğal Kaynaklar

7. I. Doğal kaynakların farklı alanlarda kullanılması, önemini arttıran etkenlerden biridir.
II. Kanada, ABD ve Rusya gibi gelişmiş ülkeler doğal kaynaklarını verimli kullanmaktadırlar.
III. Teknolojik gelişmeler doğal kaynak israfını artırmıştır.

Doğal kaynaklarla ilgili olarak yukarıdaki açıklamalardan hangileri yanlıştır?

A) Yalnız I B) Yalnız II C) Yalnız III D) I. ve II. E) II. ve III.

8. **Aşağıdaki ülkelerden hangisi zengin taş kömürü rezervlerine sahip ülkelerden biri değildir?**

A) Kenya
B) Avustralya
C) Hindistan
D) Almanya
E) Güney Afrika Cumhuriyeti

9. Günümüzde hızla ilerleyen küresel ısınmanın nedenlerinden birisi de fosil kaynakların kullanımının fazla olmasıdır.

Buna göre küresel ısınmayı azaltmak için aşağıdaki kaynaklardan hangisinin kullanımı azaltılmalıdır?

A) Güneş
B) Rüzgar
C) Kömür
D) Dalga
E) Hidroelektrik

10.

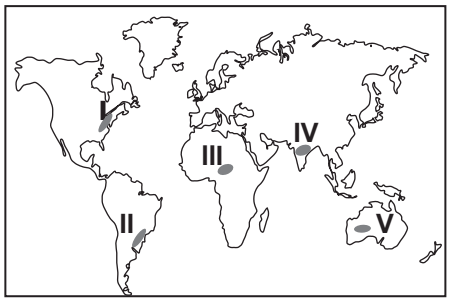

Harita üzerinde numaralandırılarak verilen yerlerden hangisinde doğal kaynakların daha verimli kullanılması beklenir?

A) I B) II C) III D) IV E) V

11. Doğal kaynaklar tükenebilir ve tükenmeyen doğal kaynaklar olarak ikiye ayrılmaktadır.

Aşağıda verilen doğal kaynak sınıflandırmalarından hangisi yanlıştır?

A) Kömür - tükenebilir
B) Jeotermal - tükenmeyen
C) Petrol - tükenebilir
D) Madenler - tükenmeyen
E) Doğalgaz - tükenebilir

12. **Alternatif enerji kaynaklarından birisi olan güneş enerjisi üretimi için Dünya üzerinde aşağıda verilen yerlerden hangisi daha uygundur?**

A) Kanada'nın Kuzeyi
B) Kuzey Afrika
C) İskandinavya Yarımadası
D) Sibirya'nın Kuzeyi
E) Güneydoğu Asya

ÖLÇME, DEĞERLENDİRME VE SINAV HİZMETLERİ GENEL MÜDÜRLÜĞÜ

KAZANIM KAVRAMA TESTİ

Adı :.....
Soyadı :.....
Sınıf :.....
NO : .....

1	2	3	4	5	6	7	8	9	10	11	12
A	A	A	A	A	A	A	A	A	A	A	A
B	B	B	B	B	B	B	B	B	B	B	B
C	C	C	C	C	C	C	C	C	C	C	C
D	D	D	D	D	D	D	D	D	D	D	D
E	E	E	E	E	E	E	E	E	E	E	E

Doğru :.....
Yanlış :.....
Boş :.....
Puan : .....

1. Aşağıda Anadolu'da kurulan medeniyetler ve kuruldukları yerler eşleştirilmiştir.

I. Frigya - Amasya çevresinde
II. Hitit - Çorum çevresinde
III. Urartu - Van çevresinde
IV. İyonya - Kayseri çevresinde

Bu eşleştirmelerden hangileri doğru verilmiştir?

A) I. ve II. B) I. ve III.
C) II. ve III. D) II. ve IV.
E) III. ve IV.

2. Anadolu Yarımadası'nın özel konumu geçmişten günümüze kadar kültürel, ekonomik ve siyasi alanda üzerinde kurulmuş devletler için avantajlar sunmuştur.

Bu durum üzerinde Anadolu Yarımadası'nın aşağıdaki özelliklerinden hangisinin etkisi daha az olmuştur?

A) Su kaynakların bol olması
B) İstanbul Boğazı'na sahip olması
C) Yer şekillerinin engebeli olması
D) İklim koşullarının elverişli olması
E) Verimli topraklara sahip olması

3. Türkiye, Ortadoğu ve Hazar Denizi gibi enerji kaynakları bakımından zengin yerlere yakın bir konumdadır.

Bu durum Türkiye'nin aşağıdaki özelliklerinden hangisinin önemini artırmıştır?

A) Yer şekillerinin
B) İklim özelliklerinin
C) Toprak özelliklerinin
D) Ortalama yükseltisinin
E) Jeopolitik konumunun

4. Anadolu'da ilk çağlardan beri çok farklı özelliklere sahip birçok medeniyet kurulmuştur.

Aşağıdakilerden hangisi bu medeniyetlerinden biri değildir?

A) Frigya
B) Hitit
C) Likya
D) Urartu
E) Pers

5. İstanbul ve Çanakkale boğazları Karadeniz'e kıyısı olan ülkelerin ticari faaliyetleri üzerinde önemli bir yere sahiptir.

Aşağıdakilerden hangisi bu ülkelerden biri değildir?

A) Romanya B) Bulgaristan
C) Yunanistan D) Gürcistan
E) Rusya

6.

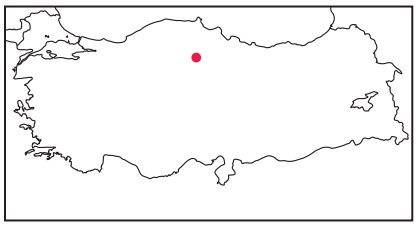

Harita üzerinde işaretlenmiş yerde hangi uygarlık gelişmiştir?

A) Likya B) Fenike
C) Urartu D) Hitit
E) Roma

ÖLÇME, DEĞERLENDİRME VE SINAV HİZMETLERİ GENEL MÜDÜRLÜĞÜ

Medeniyetlerin Merkezi: Türkiye

7. Türkiye arazisi konum özellikleri nedeniyle çok sayıda uygarlığın doğduğu, geliştiği bir alan olmuştur. Bu uygarlıklara ait birçok yapı ülkemizde varlığını sürdürmektedir.

I. İvriz Kaya Kabartması
II. Babil'in Asma Bahçeleri
III. İskenderiye Feneri
IV. Milet Amfi Tiyatrosu

Yukarıda verilenlerden hangileri bu yapılardan biri değildir?

A) I. ve II. B) I. ve III.
C) II. ve III. D) II. ve IV.
E) III. ve IV.

8. Türkiye konum itibari ile farklı özelliklere sahip bölgeler arasındaki ticaretin sağlanmasında önemli etkiye sahiptir.

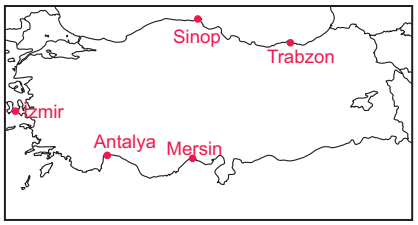

Harita üzerinde gösterilen limanlardan hangisi Rusya ile İran arasındaki deniz ticaretinde daha önemli bir yere sahiptir?

A) Sinop B) İzmir
C) Mersin D) Trabzon
E) Antalya

9. I. İklim şartlarının elverişli olması
II. Su kaynakları bakımından zengin olması
III. Ortalama yükseltisinin fazla olması

Anadolu'da geçmişten günümüze kadar birçok medeniyetin kurulmuş olmasında yukarıda verilenlerden hangileri daha fazla etkili olmuştur?

A) Yalnız I B) Yalnız II
C) Yalnız III D) I. ve II.
E) II. ve III.

10. **Aşağıdaki bölgelerden hangileri arasındaki ulaşım yollarının Türkiye arazisi üzerinden geçmesi beklenmez?**

A) Kafkaslar - Balkan Yarımadası
B) Akdeniz havzası - Hazar Havzası
C) Ortadoğu - Kafkaslar
D) Balkan Yarımadası - Orta Doğu
E) Hazar Havzası - Kafkaslar

11. Anadolu Yarımadası Asya, Avrupa ve Afrika kıtalarının birbirine en yakın olduğu bir konumda bulunmaktadır.

Aşağıdakilerden hangisi bu durumun bir sonucu olarak gösterilemez?

A) Deniz ticaretinin yoğun olması
B) Kültürel etkileşimin fazla olması
C) Tarım ve hayvancılığın yaygın olarak yapılması
D) Ulaşım faaliyetlerin yoğun olarak yapılması
E) Tarih boyunca önemli medeniyetlere ev sahibi olması

12. I. Urartu
II. İyonya
III. Lidya
IV. Hitit

Yukarıda verilen Anadolu medeniyetlerinden hangileri Akdeniz'de deniz ticaretinin gelişmesine katkıda bulunmuştur?

A) I. ve II. B) I. ve III. C) II. ve III.
D) II. ve IV. E) III. ve IV.

ÖLÇME, DEĞERLENDİRME VE SINAV HİZMETLERİ GENEL MÜDÜRLÜĞÜ

Türkiye'de Arazi Kullanımı

1. Türkiye'de yer şekillerinin farklılık göstermesi arazi kullanımını da çeşitlendirmiştir.

Yer şekli	Arazi kullanımı
I. Dağlık alanlar	Kış sporları
II. Platolar	Hayvancılık
III. Bataklıklar	Atık depolama
IV. Delta ovaları	Yerleşme

Yukarıda verilen yer şekli ve arazi kullanımı eşleştirmelerinden hangileri doğru arazi kullanımına örnektir?

A) I. ve II. B) I. ve III.
C) II. ve III. D) II. ve IV.
E) III. ve IV.

2. Anadolu Yarımadası'nın orta kesimlerinde bulunan platolarda genellikle tahıl tarımı yaygın iken; Kuzeydoğu Anadolu platolarında hayvancılık faaliyetleri yaygındır.

Yukarıda bahsedilen iki bölgedeki platoluk alanlarda yaygın olan ekonomik faaliyetlerin farklılık göstermesinde etkili olan <u>temel unsur</u> nedir?

A) Yağış miktarı
B) Toprak özellikleri
C) Sıcaklık ortalaması
D) Nüfus miktarı
E) Enlem değeri

3. Türkiye'de arazi kullanımı ile ilgili olarak verilen ifadelerden hangisi yanlış arazi kullanımına örnek olarak gösterilebilir?

A) Batı Karadeniz platolarında tarım, hayvancılık ve ormancılık yaygındır.
B) Uludağ, Erciyes ve Palandöken dağlık alanlarında kış turizmi gelişmiştir.
C) Çukurova, Bafra ve Çarşamba delta ovalarında tarımsal faaliyetler yaygındır.
D) Haymana, Bozok ve Obruk platolarında küçükbaş hayvancılık yapılır.
E) Akdeniz kıyılarında turistik tesis alanları genişlemektedir.

(4. ve 5. soruları tabloda verilen bilgilere göre cevaplayınız)

Arazi yapısı	Eğim değeri %	Kapladığı alan km²	Ülke topraklarında oranı %
Düz ve hafif eğimli	0-5	65.846	8,5
Orta eğimli ve hafif dalgalı	5-10	100.386	12,8
Sarp	15+	487.864	62,5
Çok eğimli	10-15	125.909	16,2

4. Tabloya bakıldığında Türkiye'nin arazi yapısı ile ilgili olarak aşağıdakilerden hangisi <u>kesin olarak</u> söylenir?

A) Türkiye arazisi engebeli bir yapıdadır.
B) Türkiye I. derece deprem bölgesi içerisinde yer alır.
C) Türkiye arazisinin ortalama yükseltisi 1500 m'den fazladır.
D) Türkiye'de dağların büyük kısmı volkanik kökenlidir.
E) Türkiye arazisinin %40'ını karstik araziler oluşturmaktadır.

5. Tablodaki bilgilere bakıldığında aşağıdaki çıkarımlardan hangisi yapılabilir?

A) Düz ve hafif eğimli arazilerin oranı, çok eğimli arazilerin oranından daha fazladır.
B) Türkiye arazisinin yarısından fazlası sarp arazilerden oluşur
C) Türkiye'nin güneyinde düz ve hafif eğimli araziler daha fazladır.
D) Türkiye'deki platoların çoğu sarp arazilerden oluşmuştur.
E) Ükemizde orta eğimli ve hafif dalgalı araziler üzerinde sanayi faaliyetleri yoğundur.

ÖLÇME, DEĞERLENDİRME VE SINAV HİZMETLERİ GENEL MÜDÜRLÜĞÜ

Türkiye'de Arazi Kullanımı

6. Ülkemizde tarımsal üretimin büyük çoğunluğu ovalık alanlar üzerinden sağlanmaktadır. Bu ovalarda sanayi ve yerleşim alanlarının sınırı gün geçtikçe genişlemektedir. Bu durum tarımsal üretim miktarını olumsuz etkilemektedir

Parçada bahsedilen olumsuzluk aşağıda verilen ovalarımızdan hangisinde daha çok yaşanmaktadır?

A) Çukurova
B) Yüksekova
C) Pasinler Ovası
D) Malazgirt Ovası
E) Altın başak Ovası

7. Ülkemizde batıdan doğuya doğru gidildikçe yükselti genel olarak artar.

Bu durumun aşağıdaki ekonomik faaliyetlerden hangisi üzerinde olumlu etki yaptığı söylenebilir?

A) Bahçe tarımı
B) Ulaşım faaliyetleri
C) Sanayi faaliyetleri
D) Seracılık faaliyetleri
E) Hidroelektrik enerji üretimi

8. Kalker, jips ve kaya tuzu gibi kolay çözünebilen kayaçların bulunduğu yerlerde karstik yer şekilleri yaygın olarak görülür. Bazı karstik yer şekilleri turizm faaliyetlerinin gelişmesinde etkili olmuştur.

I. PamukkaleTravertenleri
II. Damlataş Mağarası
III. Elmalı Polyesi
IV. Taşeli Platosu

Yukarıda verilen karstik oluşumlardan hangileri ülkemizde turizm faaliyetlerinin gelişmesinde etkili olmuştur?

A) I. ve II. B) I. ve III.
C) II. ve III. D) II. ve IV.
E) III. ve IV.

ÖLÇME, DEĞERLENDİRME VE SINAV HİZMETLERİ GENEL MÜDÜRLÜĞÜ

9. Genel olarak yer şekillerinin eğim oranının fazla olması ekonomik faaliyetler üzerinde olumsuz bir etkiye sahiptir.

Aşağıda verilen şehirlerden hangisinde parçada bahsedilen durumun olumsuz etkisi daha azdır?

A) Niğde B) Rize
C) Tunceli D) Muğla
E) Bayburt

10. Yayla yerleşmeleri hayvancılık faaliyetleri ve sahip olduğu doğal güzellikleri sebebiyle turizm faaliyetlerinin de yaygın olduğu yerleşme şekilleridir.

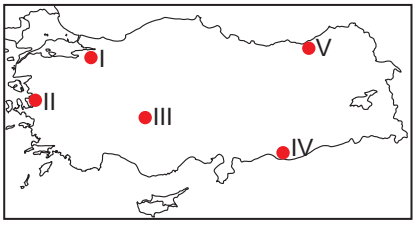

Harita üzerinde numaralandırılarak gösterilen yerlerden hangisinde yayla yerleşmeleri daha yaygındır?

A) I B) II C) III D) IV E) V

11. Orta Anadolu platoları üzerinde tahıl tarımı yaygın iken Akdeniz Bölgesi'ndeki Taşeli ve Teke platoları üzerinde tarımsal faaliyetler fazla gelişmemiştir.

Bu durumun temel nedeni aşağıdakilerden hangisidir?

A) İklim özellikleri
B) Nüfus miktarı
C) Bitki örtüsü
D) Yer şekilleri
E) Yerleşme özellikleri

KAZANIM KAVRAMA TESTİ

Adı :.....
Soyadı :.....
Sınıf :.....
NO : .....

1	2	3	4	5	6	7	8	9	10	11	12
A	A	A	A	A	A	A	A	A	A	A	A
B	B	B	B	B	B	B	B	B	B	B	B
C	C	C	C	C	C	C	C	C	C	C	C
D	D	D	D	D	D	D	D	D	D	D	D
E	E	E	E	E	E	E	E	E	E	E	E

Doğru :.....
Yanlış :.....
Boş :.....
Puan : .....

Türkiye Ekonomisini Etkileyen Faktörler

1. Yer şekillerinin engebeli olduğu alanlarda yol yapım maaliyeti engebesiz alanlara göre daha fazladır.

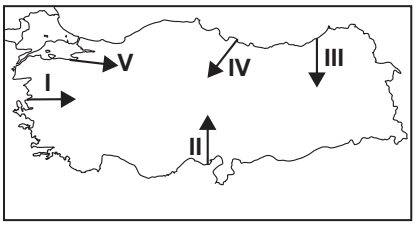

Buna göre harita üzerinde numaralandırılarak gösterilen doğrultuların hangisi yönünde eşit uzunlukta yapılacak karayolunun maliyeti daha fazla olur?

A) I B) II C) III D) IV E) V

2.

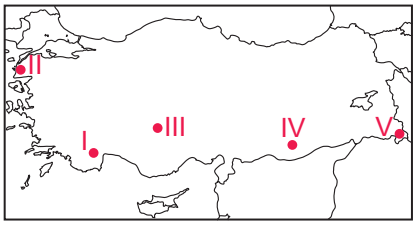

- Yer şekillerinin engebeli olması
- İklim şartlarının olumsuz olması

Haritada işaretli alanlardan hangisinde ekonomik faaliyetlerin gelişme gösterememesinde yukarıda verilen özelliklerin ikisi de etkili olmuştur?

A) I B) II C) III D) IV E) V

3. I. Kuraklık
II. Düşük sıcaklık

Yukarıda Türkiye ekonomisini olumsuz yönde etkileyen bazı etmenler verilmiştir.

Türkiye üzerinde bu etmenlerin etkisinin fazla olduğu yer eşleştirmelerinden hangisi doğrudur?

I	II
A) Ergene ovası	Menteşe yöresi
B) Bafra Ovası	Taşeli platosu
C) Sakarya Deltası	Güney Marmara
D) Konya ovası	Erzurum-Kars platosu
E) Haymana platosu	Kıyı Ege

4. Aşağıdaki grafikte N ülkesinin 2010 yılı dış alım ve dış satım miktarının aylara göre dağılımı gösterilmiştir.

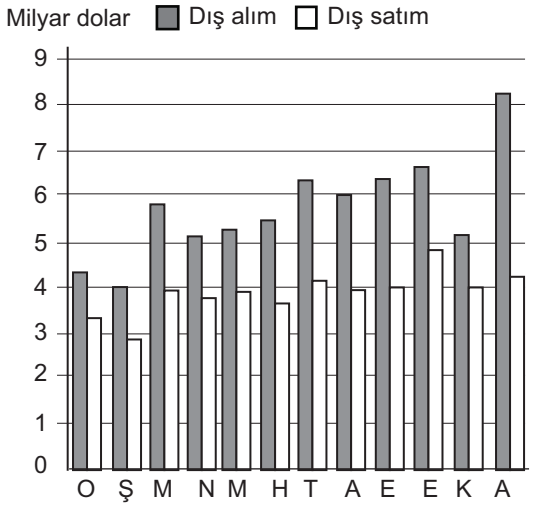

I. Dış satım gelirinin en fazla olduğu ürün
II. Dış ticaret açığının en az olduğu ay
III. Dış satımın en fazla yapıldığı ülkeler
IV. Dış alım giderinin en çok olduğu ay

Bu grafiğe bakılarak N ülkesinn ekonomik özellikleri hakkında numaralandırılarak verilen bilgilerden hangilerine ulaşılabilir?

A) I. ve II. B) I. ve III.
C) II. ve III. D) II. ve IV.
E) III. ve IV.

5.

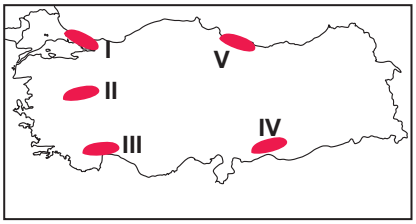

Harita üzerinde işaretli yerlerden hangisinde sanayi üretiminin Türkiye ekonomisindeki payı daha fazladır?

A) I B) II C) III D) IV E) V

ÖLÇME, DEĞERLENDİRME VE SINAV HİZMETLERİ GENEL MÜDÜRLÜĞÜ

Türkiye Ekonomisini Etkileyen Faktörler

6. Türkiye ekonomisinde, enerji nakil hatlarından gelen gelir miktarı önemli bir paya sahiptir.

Türkiye'nin böyle bir gelir kaynağına sahip olmasının temel nedeni aşağıdakilerden hangisidir?

A) Sermaye
B) Siyasi otorite
C) İş gücü
D) Kültürel özellikler
E) Coğrafi konum

7. I. Ege denizi kıyılarında tarımsal ürün çeşitliliğinin fazla olması
II. Akdeniz kıyılarında turizm faaliyetlerinin yaygın olması
III. Karadeniz kıyılarında heyelan riskinin fazla olması

Türkiye'nin ekonomik yapısı üzerinde coğrafi konumunun olumlu etkisine örnek olarak yukarıdakilerden hangileri gösterilemez?

A) Yalnız I
B) Yalnız II
C) Yalnız III
D) I. ve II.
E) II. ve III.

8.

	Tarım	Sanayi	Hizmet
1950	%39,1	%13,8	%47,1
1970	%36,7	%16,6	%46,7
1990	%16,8	%24,8	%58,4
2010	%7,8	%19,6	%72,6

Yukarıdaki tabloda Türkiye'nin 1950, 1970, 1990 ve 2010 yıllarındaki milli gelirinin sektörlere göre dağılımı verilmiştir.

Tablodaki bilgiler dikkate alındığında aşağıdaki ifadelerden hangisi kesin olarak söylenir?

A) Verilen yıllar içerisinde tarım sektöründe çalışanların oranı daha fazladır.
B) Verilen yıllarda en fazla sanayi üretimi tekstil alanında olmuştur.
C) 1970 yılında hizmet sektöründe çalışanların oranı 1950 yılına göre daha azdır.
D) Verilen yıllarda milli gelir içinde en fazla pay hizmet sektörüne aittir.
E) Sanayi sektörünün milli gelir içindeki payı sürekli artmıştır.

9. Aşağıdaki tabloda Türkiye gelirlerinin bazı yıllara ait sektörel dağılımı gösterilmiştir.

Sektör	1970	1990	1995
Sanayi	%16,6	%24,8	%32
Hizmet	%46,7	%58,4	%56
Tarım	%36,7	%16,8	%12

Tablodaki bilgiler kullanılarak bu yıllara ait aşağıdakilerden hangisi hakkında çıkarım yapılabilir?

A) Dış ticaret açığı
B) Turizm geliri
C) Ticaret potansiyeli
D) Doğal kaynak verimliliği
E) Ekonomik gelişme

10. **Aşağıdakilerden hangisi Türkiye ekonomisini etkileyen doğal faktörlerden biri değildir?**

A) İklim
B) Bitki örtüsü
C) Yer şekilleri
D) Nüfus
E) Coğrafi konum

11. **Aşağıdakilerden hangisinin Türkiye ekonomisi üzerinde olumlu katkı yapacağı savunulamaz?**

A) İşsizliğin azalması
B) Kalkınma hızının artması
C) Kaynakların verimli kullanılması
D) Tarımda insan gücünün artırılması
E) Dış ticaret açığının azalması

ÖLÇME, DEĞERLENDİRME VE SINAV HİZMETLERİ GENEL MÜDÜRLÜĞÜ

KAZANIM KAVRAMA TESTİ

Adı :.....
Soyadı :.....
Sınıf :.....
NO : .....

1	2	3	4	5	6	7	8	9	10	11	12
A	A	A	A	A	A	A	A	A	A	A	A
B	B	B	B	B	B	B	B	B	B	B	B
C	C	C	C	C	C	C	C	C	C	C	C
D	D	D	D	D	D	D	D	D	D	D	D
E	E	E	E	E	E	E	E	E	E	E	E

Doğru :.....
Yanlış :.....
Boş :.....
Puan : .....

Türkiye'nin Ekonomi Politikaları ve Sonuçları

1. Türkiye'de 1923 -1932 yılları arasında uygulanacak ekonomi politikalarına aşağıdakilerden hangisinde karar verilmiştir?

A) Sivas kongresi
B) Mudanya mütarekesi
C) Erzurum kongresi
D) İzmir iktisat kongresi
E) Amasya görüşmeleri

2. Ülkemiz içinde mekânsal farklılıklardan dolayı her yerin eşit düzeyde gelişmesi mümkün değildir. Şartların uygun olduğu alanlar fazla gelişirken uygun olmadığı yerler ise az gelişir. Mekanlar arasındaki gelişmişlik seviyesinin büyük ölçüde farklılık göstermesi çeşitli problemlere neden olur. Bunun için ülkemizin gelişmemiş yerlerinde yapılacak yatırımları özendirmek ve dengeli kalkınmayı sağlamak için teşvik uygulamaları yapılmaktadır.

Aşağıdakilerden hangisi ülkemizin gelişmemiş yerlerinde yatırımları özendirmek amacıyla devlet tarafından yapılan uygulamalardan biri değildir?

A) Vergi indirimi uygulamak
B) Arsa temini sağlamak
C) Ucuz enerji sağlamak
D) İşgücü sağlamak
E) KDV indirimi yapmak

3. Türkiye'de 1933 yılında devletin ekonomideki etkinliğini artırmak için Sümerbank kurulmuş ve bu dönemde devletçilik yoluyla sanayileşme politikasına gidilmiştir.

Bu durumun temel nedeni aşağıdakilerden hangisinde verilmiştir?

A) Özel yatırımcıların tarımla uğraşması
B) Kırsal nüfusun fazla olması
C) Doğum oranının yüksek olması
D) Tarımsal verimliliğin düşük olması
E) Özel sermaye birikiminin yetersiz olması

4. Cumhuriyet'in ilk yıllarında ekonomik kalkınmanın sağlanması için tarımsal alanda çeşitli çalışmalar yapılmıştır.

Aşağıdakilerden hangisi bu dönemde tarımsal alanda kalkınmayı arttırmak amacıyla alınan önlemler arasında gösterilemez?

A) Toprak reformu yapılması
B) Aşar vergisinin kaldırılması
C) Karabük demir-çelik fabrikasının kurulması
D) Tarımda makineleşmenin sağlanması için teşvikler verilmesi
E) Ziraat Bankası aracılığıyla çiftçilere kredi imkanı sağlanması

5. Türkiye'de 1950 - 1960 yılları arasında uygulan ekonomi politikaları doğrultusunda aşağıdakilerden hangisi gerçekleşmiştir?

A) Ekonomide tarıma önem verilerek özel sektörün desteklenmesi
B) Devletçilik yoluyla sanayileşme politikasına geçilmesi
C) Devlet Planlama Teşkilatı'nın kurulması
D) Teşvik-i Sanayi Kanunu'nun çıkarılması
E) Gümrük Kanunu'nun çıkarılması

6. AşağıdaTürkiye'nin milli gelirinin 1925 ve 2010 yıllarına ait sektörel dağılımı gösterilmiştir.

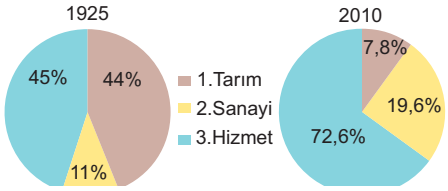

I. Türkiye ekonomisi gelişmiştir.
II. Türkiyede tarımda çalışan nüfus miktarı azalmıştır.
III. Verilen yıllar içerisinde en fazla oransal artış hizmet sektöründe olmuştur.

Gafiklere bakıldığında yukarıdaki yargılarından hangilerine ulaşılabilir?

A) Yalnız I
B) Yalnız II
C) I. ve II.
D) I. ve III.
E) II. ve III.

ÖLÇME, DEĞERLENDİRME VE SINAV HİZMETLERİ GENEL MÜDÜRLÜĞÜ

Türkiye'nin Ekonomi Politikaları ve Sonuçları

7. 1929 yılında bütün dünyayı sarsan ekonomik bunalım nedeniyle devletçilik politikası uygulanmaya başlanmış. Yabancı rekabete karşı korunmak için bazı tedbirler alınmıştır.

Aşağıdakilerden hangisi Türkiye'nin bu dönemde yabancı rekabete karşı korunmak için aldığı tedbirlerdendir?

A) Ekonomide devletin etkisi azaltılmıştır.
B) Altyapı çalışmalarına önem verilmiştir.
C) Özel sektör desteklenmiştir.
D) Tarıma sanayiden daha çok önem verilmiştir.
E) Gümrük vergileri arttırılmıştır.

8. Türkiye 'de 24 Ocak kararları ile devletin ekonomiye müdahalesi azaltılmıştır. 1983 yılından itibaren ekonomide dışa açılma süreci başlamıştır.

Aşağıdakilerden hangisi bu durumun sonucu olarak gösterilebilir?

A) İç ticaret hacmi artmıştır.
B) Kalkınma hızı düşmüştür.
C) Tarımsal ürünlere dayalı sanayi gelişmiştir.
D) Özel sektörün ekonomideki etkisi azalmıştır.
E) Ekonomi küresel ve bölgesel etkilere açık hale gelmiştir.

9. **1938 yılında hazırlanan II. Beş yıllık kalkınma planının uygulanamamasının nedeni aşağıdakilerden hangisinde verilmiştir?**

A) Halkın eğitim düzeyinin yetersizliği
B) Ülke dışına yapılan göçlerin fazlalığı
C) Kalifiye iş gücü yetersizliği
D) Sermaye birikiminin yetersizliği
E) İkinci Dünya Savaşı tehlikesi

ÖLÇME, DEĞERLENDİRME VE SINAV HİZMETLERİ GENEL MÜDÜRLÜĞÜ

10.
- Aşar vergisi kaldırıldı.
- Tarımda makineleşme için teşvikler verildi.
- Ziraat Bankası aracılığıyla çiftçilere kredi verildi.

Türkiye'de yukarıdaki gelişmeler hangi yıllar arasında gerçekleşmiştir?

A) 1923 - 1932
B) 1932 - 1950
C) 1950 - 1960
D) 1960 - 1980
E) 1980 ve sonrası

11. I. Sümerbank'ın kurulması
II. Maden Tetkik Arama Enstitüsü'nün kurulması
III. Serbest ekonomi modeline geçilmesi

Türkiye'de yukarıdaki gelişmelerden hangileri devletin ekonomideki etkisinin azalmasına neden olmuştur?

A) Yalnız I
B) Yalnız II
C) Yalnız III
D) I. ve II.
E) II. ve III.

12. **Aşağıdakilerden hangisi Türkiye'de uygulanan ekonomi politikalarının amaçlarından biri <u>değildir</u>?**

A) Doğal kaynakları en verimli şekilde kullanmak
B) İstikrarlı kalkınmayı sağlamak
C) Gelir dağılımını dengelemek
D) Ucuz iş gücü sağlamak
E) Büyümeyi hızlandırmak

KAZANIM KAVRAMA TESTİ

Adı :.....
Soyadı :.....
Sınıf :.....
NO : .....

1	2	3	4	5	6	7	8	9	10	11	12
A	A	A	A	A	A	A	A	A	A	A	A
B	B	B	B	B	B	B	B	B	B	B	B
C	C	C	C	C	C	C	C	C	C	C	C
D	D	D	D	D	D	D	D	D	D	D	D
E	E	E	E	E	E	E	E	E	E	E	E

Doğru :.....
Yanlış :.....
Boş :.....
Puan : .....

Türkiye'de Tarım

1. Türkiye'de aynı dönemde ekilen buğdayın yetişme süresi batıdan doğuya doğru gidildikçe uzar.

Bu durum Türkiye'nin aşağıdaki özelliklerinden hangisi ile açıklanabilir?

A) Matematik konum
B) Bitki örtüsü
C) Toprak özellikleri
D) Yer şekilleri
E) Denizlere göre konumu

2. Ülkemizde bazı tarım ürünleri, Gıda Tarım ve Hayvancılık Bakanlığı tarafından verilen özel izin ile sadece belirtilen yerlerde yetiştirilmektedir.

Aşağıdakilerden hangisi bu tarım ürünlerinden biri değildir?

A) Haşhaş
B) Pirinç
C) Kenevir
D)Tütün
E) Nohut

3. I. Üretim sürecinde doğanın dengesini bozacak ve insan sağlığına zararlı olabilecek kimyasal madde kullanmadan yapılan bir tarım şeklidir.

II. Yağışın az, sulamanın yetersiz olduğu alanlarda tarlaların bir yıl ekilip, bir yıl dinlendirilmesi şeklinde uygulanan bir tarım yöntemidir.

III. Kış sıcaklık ortalamasının 0 °C'nin altına inmediği yerlerde uygulanan tarım yöntemidir. Bu yöntem tarım ürünlerinin mevsimi dışında yetiştirilmesine olanak sağlar.

Numaralandırılarak tanımlanan tarım kavramları aşağıdakilerin hangisinde doğru verilmiştir?

	I	II	III
A)	Organik	Nadas	Seracılık
B)	İntansif	Organik	Ekstansif
C)	Seracılık	Nadas	Organik
D)	Organik	Ekstansif	Seracılık
E)	Ekstansif	Nadas	Organik

4. Türkiye'de farklı iklim tiplerinin görülmesi yetiştirilen tarım ürünlerinin çeşitliliğini artırmıştır.

Ülkemizde aşağıda verilen tarım ürünleri eşleştirmelerinden hangilerinin yetiştirilmesi, farklı iklim tiplerinin görüldüğüne kanıt olarak gösterilebilir?

A) Çay - Fındık
B) Buğday - Arpa
C) Zeytin - Fındık
D) Turunçgil - İncir
E) Mercimek - Arpa

5.

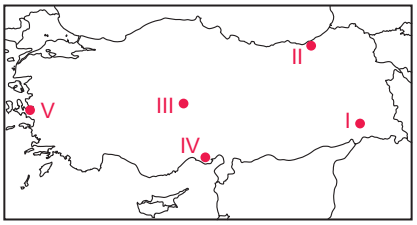

Türkiye'nin iklim koşulları göz önüne alındığında harita üzerinde numaralandırılarak verilen yerlerden hangisinde sulama faaliyetlerine daha az ihtiyaç duyulmaktadır?

A) I B) II C) III D) IV E) V

6. Buğday, yetişme döneminde yağış olgunlaşma döneminde ise sıcaklık isteği fazla olan bir tarım ürünüdür. Bu nedenle yaz yağışı olan yerlerde buğday tarımı yaygın değildir.

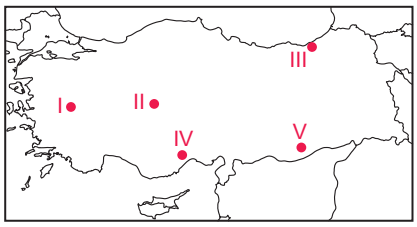

Haritada numaralandırılarak verilen yerlerden hangisi buğday tarımı için uygun değildir?

A) I B) II C) III D) IV E) V

ÖLÇME, DEĞERLENDİRME VE SINAV HİZMETLERİ GENEL MÜDÜRLÜĞÜ

Türkiye'de Tarım

7. Aşağıda K, L ve M bitkilerinin yetişme şartları verilmiştir.

K bitkisi: Yetişme döneminde yağış, olgunlaşma döneminde ise yüksek sıcaklık ister.

L bitkisi: Yıllık yağış miktarının fazla ve yağış rejiminin düzenli olduğu yerlerde yetişir.

M bitkisi: Kış sıcaklıklarının yüksek, don olayının görülmediği yerlerde yerlerde yetişir.

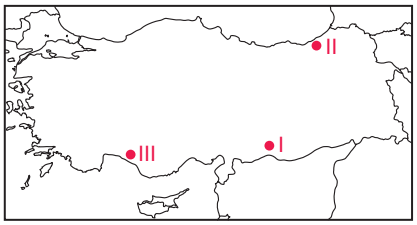

Buna göre K, L ve M bitkilerinin haritada numaralandırılarak verilen yerlerin hangilerinde yetiştirilmesi daha uygundur?

	K	L	M
A)	II	I	III
B)	I	II	III
C)	III	II	I
D)	II	III	I
E)	III	I	II

8. I. Yıllık sıcaklık farkının fazla olması
II. Kış aylarında sıcaklık ortalamasının 0 °C'nin altına düşmemesi
III. Her mevsimin yağışlı olması

Yukarıdakilerden hangileri Türkiye'de muz tarımının yapıldığı alanların özelliklerinden değildir?

A) Yalnız I
B) Yalnız II
C) Yalnız III
D) I. ve III.
E) II. ve III.

9. Aşağıdaki tarım ürünlerinden hangisinin Türkiye'deki yetişme alanı daha yaygındır?

A) Fındık
B) Zeytin
C) Pirinç
D) Turunçgil
E) Üzüm

10. Bir yerde doğal koşulların etkisiyle en çok yetiştirilen tarım ürününe o yer için mono kültür bitki denir.

Aşağıdakilerden hangisinde verilen tarım ürünü, yer eşleştirmesi bu duruma örnek oluşturmaz?

A) Ayçiçeği - Edirne
B) Fındık - Ordu
C) Muz - Anamur
D) Pamuk - Artvin
E) Çay – Rize

11. Türkiye'de teknolojik gelişmelerle birlikte çeşitli tarım ürünlerinin ekim alanı genişlemiştir.

Türkiye'de sulama imkânlarının geliştirilmesine bağlı olarak aşağıdaki tarım ürünlerinden hangisinin ekim alanında daha büyük bir genişleme yaşanmıştır?

A) Zeytin
B) Pamuk
C) Fındık
D) Haşhaş
E) İncir

12. Tarım ürünlerinin dağılışındaki en önemli faktör iklim özellikleridir.

Aşağıda tarım ürünlerinin dağılışı hakkında verilen bilgilerden hangisi parçada verilen bilgiye örnek olarak gösterilemez?

A) Erzurum - Kars platosu üzerinde zeytin tarımının yapılamaması
B) Karadeniz kıyılarında buğday tarımının yaygın olmaması
C) Iğdır ovasında pamuk tarımının yapılabilmesi
D) Muz tarımının Anamur çevresinde yaygın olması
E) Haşhaş tarımının devlet kontrolünde gerçekleşmesi

ÖLÇME, DEĞERLENDİRME VE SINAV HİZMETLERİ GENEL MÜDÜRLÜĞÜ

Türkiye'de Hayvancılık

1. Türkiye'deki hayvancılık faaliyetleri içerisinde en yaygın olarak yapılanı küçükbaş hayvancılıktır.

Bu durumun <u>temel nedeni</u> aşağıdakilerden hangisidir?

A) İç piyasada küçükbaş hayvancılığa dayalı ürünlerin tüketiminin fazla olması
B) Küçükbaş hayvancılıktan elde edilen gelirin diğerlerinden daha fazla olması
C) Büyükbaş hayvancılığın daha fazla emek gerektirmesi
D) Ülkemizin İkliminin ve yer şekillerinin küçükbaş hayvancılık için daha uygun olması
E) Küçükbaş hayvancılıktan elde edilen ürünlerin dış pazarlarda daha fazla talep görmesi

2. Tavuk çiftlikleri ülkemizin hemen hemen her yöresinde bulunmaktadır. Ancak nüfusu fazla olan şehirlerin çevrelerinde daha yoğundur.

Bu durum sanayi tesislerinin yer seçiminde etkili olan faktörlerden hangisinin etkisine örnek olarak gösterilebilir?

A) Ham maddeye yakınlık
B) Yer şekillerinin etkisi
C) Pazar alanlarına yakınık
D) İklim şartlarının uygun olması
E) İş gücüne yakınlık

3.

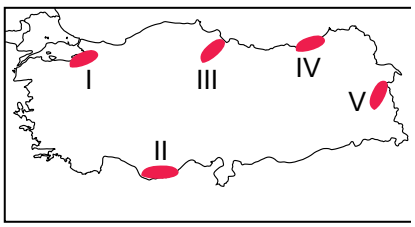

Haritada üzerinde numaralandırılarak verilen yerlerin hangisinde ipek böcekçiliği faaliyetleri yaygındır?

A) I B) II C) III D) IV E) V

4. Ülkemizde tarımla geçimini sağlayan insanların büyük çoğunluğu hayvancılık faaliyetleri ile de uğraşmaktadır. Hayvancılık faaliyetlerinden elde edilen ürünler ise birçok sanayi dalında hammadde olarak kullanılmaktadır.

Aşağıdaki sanayi kollarından hangisinin hammadde ihtiyacının karşılanmasında büyükbaş hayvancılık faaliyetlerinin katkısı bulunmaktadır?

A) Yünlü dokuma
B) Enerji üretimi
C) Deri sanayisi
D) Pamuklu dokuma
E) Cam sanayisi

5. I. Balıkçı teknelerinin açık deniz balıkçılığı için uygun donanıma sahip olmaması
II. Balıkçılık işleyen tesislerin teknik donanımları ve kapasitelerinin yetersiz olması
III. Denizlerimizde balık çeşitliliği ve popülasyonunun yetersiz olması

Türkiye'de balıkçılık sektörü için elverişli şartların bulunmasına rağmen balıkçılığın yeterince gelişmemiş olmasında yukarıdakilerden hangileri etkili olmuştur?

A) Yalnız I B) Yalnız II C) Yalnız III D) I. ve II. E) II. ve III.

6.

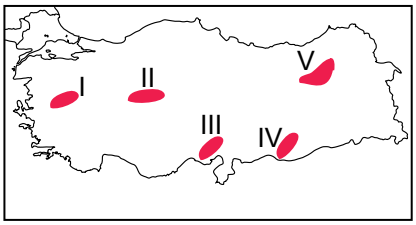

Haritada numaralandırılarak verilen yerlerden hangisinde büyükbaş hayvancılık faaliyetleri daha yaygındır?

A) I B) II C) III D) IV E) V

ÖLÇME, DEĞERLENDİRME VE SINAV HİZMETLERİ GENEL MÜDÜRLÜĞÜ

Türkiye'de Hayvancılık

7. Aşağıdakilerden hangisi Türkiye'de hayvancılıkta verimin artırılması için alınması gereken önlemlerden biri değildir?

A) Erken kesimlerin önüne geçilmesi
B) Hayvan soylarının ıslah edilmesi
C) Meraların ıslah edilmesi
D) İthal et tüketiminin yaygınlaştırılması
E) Ahır hayvancılığının teşvik edilmesi

8. Ülkemizde doğal bitki örtüsünün çeşitlilik göstermesi arıcılık faaliyetlerini olumlu etkilemiştir. Bu çeşitliliğe bağlı larak çam balı , çiçek balı, kestane balı, narenciye balı, kekik balı gibi birçok bal türü bulunmaktadır.

Bu bilgiye bakıldığında aşağıda verilen yerlerden hangisinde bal üretiminin daha fazla olması beklenir?

A) Muğla ve çevresi
B) Niğde ve çevresi
C) Afyon ve çevresi
D) Uşak ve çevresi
E) Konya ve çevresi

9. Türkiye'de hayvansal üretimde yıldan yıla büyük dalgalanmaların görülmesinin nedeni olarak aşağıdakilerden hangisi gösterilebilir?

A) İç tüketimin fazla olması
B) Ahır hayvancılığının yaygın olmaması
C) Ürünlerin dış piyasada talep görmemesi
D) Hayvan soylarının ıslah edilemeyişi
E) Ürünlere olan talebin yıldan yıla değişiklik göstermesi

10. Aşağıda bazı hayvancılık faaliyetleri ile bu hayvancılık faaliyetlerin yoğun olarak yapıldığı yerlerin bitki örtüsü özellikleri eşleştirilmiştir.

I. Koyun yetiştiriciliği - bozkır bitki örtüsü
II. Kıl keçisi yetiştiriciliği - orman bitki örtüsü
III. Büyükbaş hayvancılık - çayır bitki örtüsü

Bu eşleştirmelerden hangileri yanlıştır?

A) Yalnız I B) Yalnız II C) Yalnız III
D) I. ve II. E) II. ve III.

11. I. Hayvancılıktan elde edilen verimin yıldan yıla değişmesi
II. Tesislerin küçük ve bir ailenin geçimini sağlayacak kapasitede olması
III. Dağılışında coğrafi koşulların etkili olmaması

Yukarıda verilen ifadelerin hangileri mera hayvancılığının özellikleri olarak gösterilebilir?

A) Yalnız I B) Yalnız II C) Yalnız III
D) I. ve II. E) I. ve III.

12. "Arılar öldüğünde insanlar en fazla dört yıl yaşayabilir"
Albert Einstein

Albert Einstein bu sözüyle aşağıdakilerden hangisini vurgulamak istemiştir?

A) Bal tüketiminin insan sağlığı için gerekli olduğu
B) Arıların insanlardan daha uzun yaşadığı
C) Ekosistemlerin işleyişi üzerinde arıların çok önemli bir görevi olduğu
D) Bal üretiminin biyomlara göre değişiklik gösterdiği
E) Hayvansal ürünler içerisinde bal tüketiminin daha fazla olduğu

ÖLÇME, DEĞERLENDİRME VE SINAV HİZMETLERİ GENEL MÜDÜRLÜĞÜ

KAZANIM KAVRAMA TESTİ

Adı :.....
Soyadı :.....
Sınıf :.....
NO : .....

1	2	3	4	5	6	7	8	9	10	11	12
A	A	A	A	A	A	A	A	A	A	A	A
B	B	B	B	B	B	B	B	B	B	B	B
C	C	C	C	C	C	C	C	C	C	C	C
D	D	D	D	D	D	D	D	D	D	D	D
E	E	E	E	E	E	E	E	E	E	E	E

Doğru :.....
Yanlış :.....
Boş :.....
Puan : .....

Türkiye'de Madenler

1. • Karabük
• Ereğli
• İskenderun
• Kırıkkale

Bu şehirlerimizde aşağıdaki madenlerden hangisini işlemeye yönelik tesis bulunmaktadır?

A) Civa B) Krom
C) Demir D) Kurşun
E) Boksit

2.

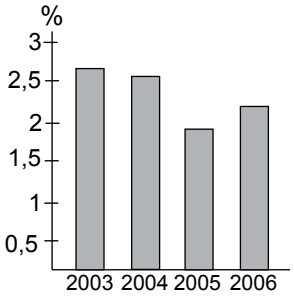

Yukarıdaki grafikte Türkiye'nin 2003-2006 yılları arasındaki maden ürünleri ihracatının ülkemizin toplam ihracatı içindeki payı verilmiştir.

Tablodaki bilgilere bakıldığında Türkiye'nin maden ürünleri ihracatı ile ilgili olarak aşağıdakilerden hangisi söylenebilir?

A) Maden ürünleri ihracatı verilen yıllar içerisinde gıda ürünleri ihracatından fazla olmuştur.
B) Toplam ihracat içerisinde payı en fazla olan maden bor mineralleri olmuştur.
C) Maden ürünleri ihracatının dalgalanma göstermesinde üretim faaliyetleri etkili olmuştur.
D) Türkiye ihracatı üzerinde maden ürünlerinin oranı her geçen yıl artış göstermiştir.
E) Toplam ihracat içerisinde maden ürünleri ihracatının oranı en fazla 2003 yılında olmuştur.

3. **Aşağıda verilen maden ve çıkarıldığı yer eşleştirmelerinden hangisi <u>yanlıştır</u>?**

A) Bor – Susurluk
B) Bakır – Murgul
C) Boksit – Akseki
D) Krom – Guleman
E) Demir - Karabük

4. Ülkemiz maden çeşitliliği bakımından zengin bir ülke konumundadır. Ba bu madenlerin toplam rezervi ve tenör oranı düşünüldüğünde aynı şeyi söylemek mümkün değildir.

Bu bilgiye bakılarak aşağıdaki çıkarımlardan hangisi yapılabilir?

A) Ülke içerisindeki ticaretin canlanmasında madencilik faaliyetlerinin etkisi yoktur.
B) Ülkemizdeki maden yataklarının hepsi işletilebilir özellikte değildir.
C) Ülkemizdeki sanayi faaliyetlerinde genellikle ithal edilen maden ürünleri kullanılmakatadır.
D) Bir madenin işletmeye açılabilmesi için gerekli sermayeye ihtiyaç duyulmaktadır.
E) Madencilik faliyetlerinin geliştirilmesi için özel sektörün desteklenmesi gerekmektedir.

5.

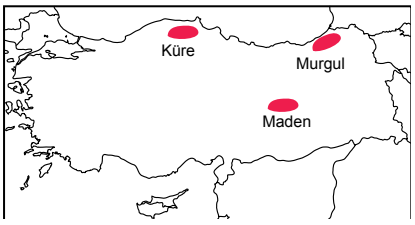

Yukarıda gösterilen yerlerde hangi madene ait yataklar bulunmaktadır?

A) Bakır B) Bor
C) Demir D) Krom
E) Asbest

ÖLÇME, DEĞERLENDİRME VE SINAV HİZMETLERİ GENEL MÜDÜRLÜĞÜ

Türkiye'de Madenler

6.

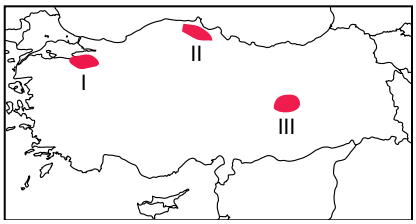

Haritada numaralandırılarak gösterilen yerlerde çıkarılan madenler aşağıdakilerden hangisinde doğru eşleştirilmiştir?

	I	II	III
A)	Demir	Bor	Bakır
B)	Bakır	Civa	Demir
C)	Bor	Bakır	Krom
D)	Demir	Bor	Civa
E)	Krom	Bakır	Demir

7.
- Alüminyumun ham maddesidir.
- Ülkemizde Seydişehir tesislerinde işlenmektedir.
- İzolasyon malzemelerinin yapımında kullanılmaktadır.
- Hafif olması sebebiyle uçak yapımında çok kullanılan bir madendir.

Yukarıda bazı özellikleri verilen maden hangisidir?

A) Barit
B) Bor
C) Boksit
D) Mermer
E) Asbest

8.
- Petrol ve doğal gaz aramalarında kullanılır.
- Bovling, golf ve tenis toplarının yapımında kullanılır.
- Cam ve boya sanayisinde kullanılır.
- İzmit, İzmir, Elazığ, Eskişehir ve Antalya illerinde işletmeleri bulunmaktadır.

Yukarıda özellikleri verilen maden hangisidir?

A) Krom
B) Barit
C) Feldspat
D) Manganez
E) Bakır

ÖLÇME, DEĞERLENDİRME VE SINAV HİZMETLERİ GENEL MÜDÜRLÜĞÜ

9.

Yıllar	Demir (bin ton)	Krom (bin ton)	Bakır (bin ton)
1998	5695	1517	4043
1999	4932	986	4283
2000	4060	642	4478
2001	4434	454	3464
2002	3432	527	2940
2003	4434	504	3421

Yukarıdaki tabloda Türkiye'de demir, bakır ve krom madenlerinin 1998- 2003 yılları arasındaki üretim miktarları verilmiştir.

Tabloda verilen bilgilere bakıldığında aşağıdakilerden hangisine ulaşılabilir?

A) Verilen yıllarda bakır üretimi diğer madenlere göre daha az olmuştur.
B) Tüm madenlerin en fazla üretildiği yıl 1998 yılı olmuştur.
C) Bakır üretiminin en fazla olduğu yıl 2000 yılı olmuştur.
D) Bütün yıllar içerisinde en fazla üretim demir madeninde olmuştur.
E) Krom'un maden üretimimiz içerisindeki oranı sürekli azalmıştır.

10. Dünya toplam rezervi içerisinde Türkiye'nin payı aşağıdaki madenlerin hangisinde daha fazladır?

A) Demir
B) Krom
C) Civa
D) Bakır
E) Bor mineralleri

11.
- Çeliğe sertlik vererek direnç kazandırır.
- Metal eşyaların parlaklık kazanmasında kullanılır.
- Antalya'da bulunan fabrikalarda işlenmektedir

Yukarıda özellikleri verilen maden hangisidir?

A) Krom
B) Demir
C) Boksit
D) Çinko
E) Bakır

KAZANIM KAVRAMA TESTİ

Adı :.....
Soyadı :.....
Sınıf :.....
NO : .....

1	2	3	4	5	6	7	8	9	10	11	12
A	A	A	A	A	A	A	A	A	A	A	A
B	B	B	B	B	B	B	B	B	B	B	B
C	C	C	C	C	C	C	C	C	C	C	C
D	D	D	D	D	D	D	D	D	D	D	D
E	E	E	E	E	E	E	E	E	E	E	E

Doğru :.....
Yanlış :.....
Boş :.....
Puan : .....

Türkiye'nin Enerji Kaynakları

1. Ülkemizde aşağıdakilerden hangisinin kullanımının artması ithalat giderlerinin artmasına neden olur?

A) Rüzgar
B) Güneş
C) Doğalgaz
D) Hidroelektrik
E) Dalga

2.

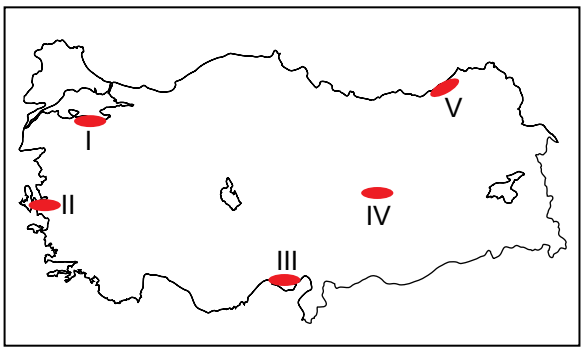

Harita üzerinde numaralandırılarak verilen yerlerin hangisinde güneş enerjisinden yararlanma oranı daha azdır?

A) I B) II C) III D) IV E) V

3. Aşağıdaki enerji kaynaklarından hangisinin oluşumu üzerinde jeolojik yapı etkili olmuştur?

A) Güneş
B) Nükleer
C) Dalga
D) Biyokütle
E) Jeotermal

4.

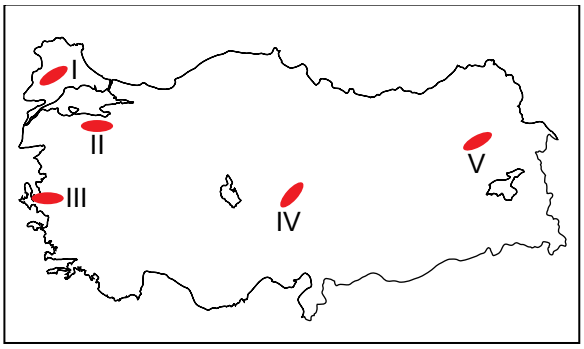

Eğim ve yükseltinin fazla olduğu yerlerde akarsuların hidroelektrik enerji potansiyelleri yüksektir.

Buna göre harita üzerinde numaralandırılarak verilen yerlerin hangisinde akarsuların hidroelektrik enerji potansiyeli daha yüksektir?

A) I B)II C)III D)IV E)V

5. Aşağıda verilen enerji kaynaklarından hangisi günümüze daha uzak bir jeolojik zamanda oluşmuştur?

A) Linyit
B) Petrol
C) Doğalgaz
D) Antrasit
E) Taş kömürü

6. I. Jeotermal
II. Hidroelektrik
III. Taş kömürü
IV. Doğal gaz
V. Linyit

Türkiye'nin elektrik üretiminde yukarıda verilen enerji kaynaklarından hangi ikisi diğerlerine göre daha fazla kullanılmaktadır?

A) I. ve II. B) I. ve III. C) II. ve III.
D) II. ve IV. E) IV. ve V.

ÖLÇME, DEĞERLENDİRME VE SINAV HİZMETLERİ GENEL MÜDÜRLÜĞÜ

Türkiye'nin Enerji Kaynakları

7.

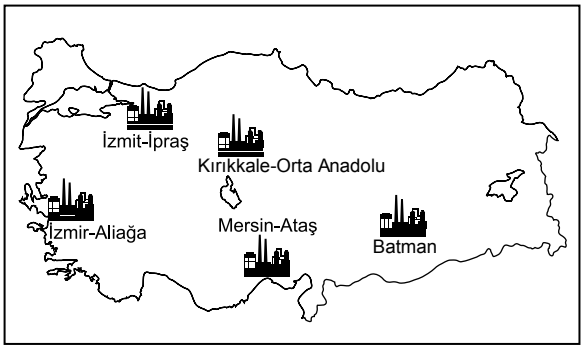

Haritada işaretlenerek gösterilen sanayi tesislerinde hangi enerji kaynağı işlenmektedir?

A) Petrol B) Linyit
C) Doğalgaz D) Rüzgar
E) Taş kömürü

8. Petrol, doğalgaz, linyit ve taş kömürü kullanılarak elde edilen enerjiye termik enerji denir.

Aşağıdaki santrallerden hangisinde bu enerji kaynaklarından biri <u>kullanılmamaktadır</u>?

A) Hamitabat (Kırklareli)
B) Alaçatı (İzmir)
C) Yatağan (Muğla)
D) Çatalağzı (Zonguldak)
E) Ovaakça (Bursa)

9. Aşağıda verilen enerji üretim tesislerinden hangisinin üretimi üzerinde iklim koşullarının etkisi diğerlerine göre daha fazladır?

A) Karakaya (Malatya)
B) Ambarlı (İstanbul)
C) Tavşanlı(Kütahya)
D) Çayırhan (Ankara)
E) Afşin - Elbistan (Kahramanmaraş)

ÖLÇME, DEĞERLENDİRME VE SINAV HİZMETLERİ GENEL MÜDÜRLÜĞÜ

10. Sıcak su kaynaklarından elde edilen enerjiye jeotermal enerji adı verilir.

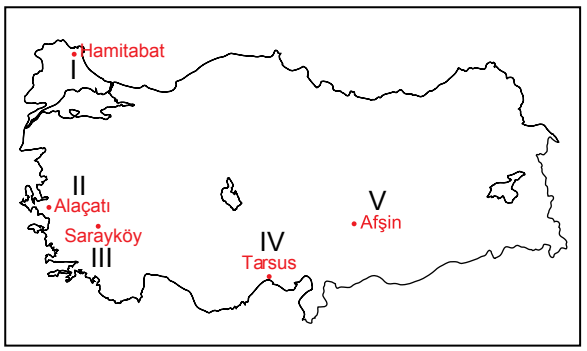

Harita üzerinde numaralandırılarak verilen yerlerden hangisinde jeotermal enerji tesisi bulunmaktadır?

A) I B) II C) III D) IV E) V

11. I- Tunçbilek II- Yatağan
III- Keban V- Karakaya

Yukarıdaki santrallerden hangi ikisinin bulunduğu yerde hava kirliliğinin diğerlerine göre <u>daha az</u> olması beklenir?

A) I. ve II B) II. ve III. C) I. ve III.
D) II. ve IV. E) III. ve IV.

12. Nükleer santrallerin yer seçiminde aşağıdakilerden hangisi etkili olmuştur?

A) Hammadde kaynağına yakın olması
B) Ulaşım imkanlarının kolay olması
C) Tüketim alanlarına yakın olması
D) Deprem riskinin az olması
E) Yerleşim yerlerine yakın olması

KAZANIM KAVRAMA TESTİ

Adı :.....
Soyadı :.....
Sınıf :.....
NO : .....

1	2	3	4	5	6	7	8	9	10	11	12
A	A	A	A	A	A	A	A	A	A	A	A
B	B	B	B	B	B	B	B	B	B	B	B
C	C	C	C	C	C	C	C	C	C	C	C
D	D	D	D	D	D	D	D	D	D	D	D
E	E	E	E	E	E	E	E	E	E	E	E

Doğru :.....
Yanlış :.....
Boş :.....
Puan : .....

Türkiye'de Sanayi

1. Aşağıdakilerden hangisi bir yerde sanayi tesislerinin kurulması için gerekli olan şartlardan biri <u>değildir</u>?

A) Yeterli sermaye birikiminin olması
B) Ulaşım olanaklarının gelişmiş olması
C) Hammadde kaynaklarının yeterli olması
D) İş gücü potansiyelinin fazla olması
E) Yer şekillerinin engebeli olması

2. Şeker fabrikaları şeker pancarı tarımının yapıldığı yerlerin yakınında kurulmaktadır.

Bu bilgi sanayi tesislerinin yer seçiminde etkili olan faktörlerden hangisine örnek olarak gösterilebilir?

A) Su kaynaklarına yakınlık
B) Enerji kaynağına yakınlık
C) Tüketim alanlarına yakınlık
D) Hammadde kaynağına yakınlık
E) Ulaşım imkanlarının uygun olması

3.

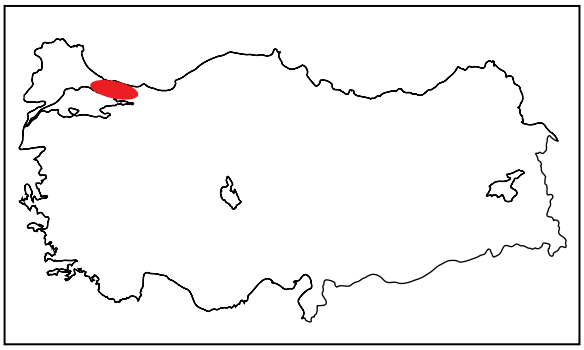

Haritada taranarak gösterilen yerin ekonomik gelişimi üzerinde aşağıdakilerden hangisinin etkisi diğerlerine göre daha <u>azdır</u>?

A) Coğrafi konumu
B) Turizm olanakları
C) İklim özellikleri
D) Enerji üretimi
E) Ulaşım olanakları

4. Sanayi tesislerinin yoğun olduğu yerlerde hava kirliliği, sanayi tesislerinin daha az olduğu yerlere göre daha fazladır.

Yalnızca bu bilgiye bakılarak aşağıda verilen şehirlerimizden hangisinde hava kirliliğinin diğerlerine göre daha az olması beklenir?

A) Artvin
B) Sakarya
C) Adana
D) Bursa
E) Gaziantep

5. Aşağıda verilen sanayi kuruluşlarından hangisinde kullanılan hammaddenin üretim miktarı iklim koşullarına bağlı olarak <u>değişmez</u>?

A) Pamuklu dokuma sanayisi
B) Çay sanayisi
C) Şeker sanayisi
D) Un sanayisi
E) Lastik sanayisi

6. Türkiye'nin doğusunda sanayi tesislerinin yetersiz olmasında aşağıdakilerden hangisinin etkisi diğerlerine göre <u>daha azdır</u>?

A) Enerji üretiminin yetersiz olması
B) Pazar alanlarına uzak olması
C) Yer şekillerinin engebeli olması
D) Ulaşım imkanlarının yetersiz olması
E) İklim koşullarının uygun olmaması

ÖLÇME, DEĞERLENDİRME VE SINAV HİZMETLERİ GENEL MÜDÜRLÜĞÜ

Türkiye'de Sanayi

7. I. Antalya - Krom sanayisi
II. İskenderun - Demir - çelik sanayi
III. Ödemiş - Bor işletmeleri
IV. İzmit - Petrokimya
V. Seydişehir - Alüminyum sanayi

Yukarıda verilen yer ve bu yerlerde bulunan sanayi kolları eşleştirmelerinden hangisi yanlıştır?

A) I B) II C) III D) IV E) V

8. Sanayi tesislerinin kurulacağı yerin belirlenmesinde etkili olan faktörlerden birisi de enerji kaynaklarına yakınlıktır.

Aşağıda verilenlerden hangisinin kuruluş yerinin belirlenmesinde temel etken enerji kaynağına yakınlık?

A) Demir - çelik sanayisi - Karabük
B) Deri sanayisi - Ankara
C) Gıda sanayisi - Rize
D) Otomotiv sanayisi - Bursa
E) Kağıt sanayisi - Kastamonu

9. Sanayi üretimini desteklemek amacıyla kurulmuş olan ve sanayi tesisleri için gerekli olan hizmetlerin hepsinin bulunduğu alanlara organize sanayi bölgesi adı verilmektedir.

Aşağıdaki illerden hangisinde organize sanayi bölgelerinin sayısı daha fazladır?

A) Muğla B) Bursa
C) Kars D) Artvin
E) Hakkari

ÖLÇME, DEĞERLENDİRME VE SINAV HİZMETLERİ GENEL MÜDÜRLÜĞÜ

10. Ülkemizde bulunan kereste fabrikalarının çoğu orman bitki örtüsünün yaygın olduğu yerlerde bulunmaktadır.

Bu durumun temel nedeni aşağıdakilerden hangisidir?

A) Hammadde kaynaklarına yakın olması
B) İnşaat sanayinin gelişmiş olması
C) Ulaşım ağının gelişmiş olması
D) İş gücü potansiyelinin fazla olması
E) Tüketim alanlarına yakın olması

11. I. İpekli dokuma
II. Yünlü dokuma
III. Keten dokuma
IV. Pamuklu dokuma

Yukarıda verilen sanayi kollarından hangileri hayvancılık faaliyetlerine bağlı olarak yapılmaktadır?

A) I. ve II.
B) I. ve III
C) II. ve III.
D) I. ve IV.
E) II. ve IV.

12. I. Samsun - bakır sanayisi
II. Karabük - demir-çelik tesisleri
III. Yatağan - termik enerji santrali

Yukarıda verilen sanayi tesislerinden hangileri hammade kaynağına yakın <u>değildir</u>?

A) Yalnız I
B) Yalnız II
C) I. ve II.
D) I. ve III.
E) II. ve III.

KAZANIM KAVRAMA TESTİ

Adı :.....
Soyadı :.....
Sınıf :.....
NO : .....

1	2	3	4	5	6	7	8	9	10	11	12
A	A	A	A	A	A	A	A	A	A	A	A
B	B	B	B	B	B	B	B	B	B	B	B
C	C	C	C	C	C	C	C	C	C	C	C
D	D	D	D	D	D	D	D	D	D	D	D
E	E	E	E	E	E	E	E	E	E	E	E

Doğru :.....
Yanlış :.....
Boş :.....
Puan : .....

Türkiye'deki Doğal Afetler

1. Kar yağışlarının fazla olduğu dağlık ve engebeli arazilerde çığ görülme ihtimali fazladır.

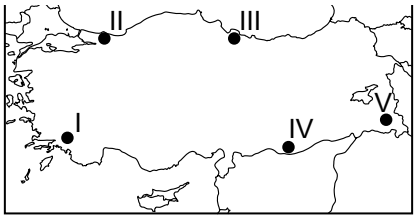

Buna göre haritada numaralandırılarak verilen yerlerin hangisinde çığ riski diğerlerine göre daha yüksektir?

A) I B) II C) III D) IV E) V

2. Ülkemizde en fazla can ve mal kaybına neden olan doğal afet depremdir.

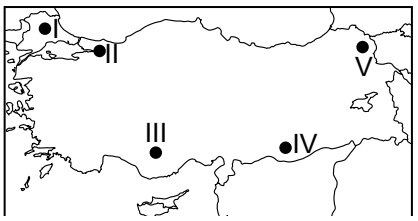

Yukarıdaki haritada numaralandırılarak verilen yerlerin hangisinde deprem riski diğerlerine göre daha yüksektir?

A) I B) II C) III D) IV E) V

3.

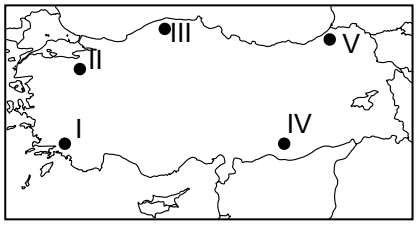

Bitki örtüsü ve iklim özellikleri düşünüldüğünde haritada numaralandırılarak verilen yerlerin hangisinde orman yangını riski diğerlerine göre daha yüksektir?

A) I B) II C) III D) IV E) V

4. Ülkemizde depremlerin sıklıkla görülmesinin <u>temel nedeni</u> aşağıdakilerden hangisidir?

A) İklim özellikleri
B) Yer şekilleri
C) Jeolojik yapı
D) Bitki örtüsü
E) Toprak özellikleri

5.

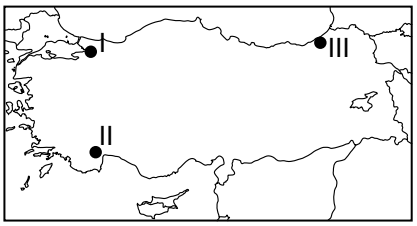

Haritada numaralandırılarak verilen yerlerde oluşma ihtmali en fazla olan doğal afet aşağıdakilerden hangisinde doğru verilmiştir?

	I	II	III
A)	Heyelan	Deprem	Orman yangını
B)	Deprem	Orman yangını	Sel-taşkın
C)	Kuraklık	Çığ	Deprem
D)	Çığ	Deprem	Kuraklık
E)	Sel-taşkın	Kuraklık	Orman yangını

6. Türkiye'de yıllık yağış miktarının fazla olduğu yıllarda aşağıdaki doğal afetlerden hangilerinin daha fazla görülmesi beklenir?

A) Sel - taşkın
B) Erozyon – deprem
C) Erozyon – kuraklık
D) Deprem – orman yangını
E) Kuraklık – kütle hareketleri

ÖLÇME, DEĞERLENDİRME VE SINAV HİZMETLERİ GENEL MÜDÜRLÜĞÜ

Türkiye'deki Doğal Afetler

7. Ülkemizde depremlerden sonra en fazla can ve mal kaybına neden olan afet sel ve taşkın oluşumudur.

Ülkemizde sel ve taşkın riskinin fazla olması üzerinde

I. akarsularının drenaj yapısı

II. bitki örtüsünün yoğun olması

III. yanlış arazi kullanımı

hangileri etkili olmaktadır?

A) Yalnız I
B) Yalnız II
C) I. ve II.
D) I. ve III.
E) II. ve III.

8. Yer şekillerinin değişimine neden olan olaylardan biri de kütle hareketleridir. Kütle hareketleri, çeşitli nedenlerden dolayı yamaç dengesinin bozulması ile birlikte arazinin bir bölümünün yer çekimi kontrolünde şekil değiştirmesine verilen isimdir. Kaya düşmesi, heyelan, akma, kayma ve sürünme kütle hareketlerinden bazılarıdır.

Buna göre aşağıdakilerden hangisi kütle hareketleri riskini arttıran faktörler arasında <u>gösterilemez</u>?

A) Yer altı sularının aşırı kullanımı
B) Bitki örtüsünün tahrip edilmesi
C) Aşırı sıcaklıklar
D) Aşırı yağışlar
E) Depremler

ÖLÇME, DEĞERLENDİRME VE SINAV HİZMETLERİ GENEL MÜDÜRLÜĞÜ

9. Türkiye'de orman yangınları en fazla Akdeniz ve Ege ormanlarında görülür.

Bu durumun <u>temel nedeni</u> aşağıdakilerden hangisidir?

A) Nüfus artışının fazla olması
B) Yer şekillerinin engebeli olması
C) Turizm faaliyetlerinin fazla olması
D) Yazların sıcak ve kurak olması
E) Kış sıcaklık ortalamasının yüksek olması

10. **Bitki örtüsünün zayıf olması aşağıdaki doğal afetlerden hangisinin oluşumunu etkileyen bir faktör <u>değildir</u>?**

A) Çığ
B) Sel
C) Taşkın
D) Deprem
E) Kütle hareketleri

11. **Ülkemizde aşağıda verilen yerlerin hangisinde deprem riski diğerlerinden <u>daha azdır</u>?**

A) Van ve çevresi
B) İzmir ve çevresi
C) Kocaeli ve çevresi
D) Erzincan ve çevresi
E) Karaman ve çevresi

KAZANIM KAVRAMA TESTİ

Adı :.....
Soyadı :.....
Sınıf :.....
NO : .....

1	2	3	4	5	6	7	8	9	10	11	12
A	A	A	A	A	A	A	A	A	A	A	A
B	B	B	B	B	B	B	B	B	B	B	B
C	C	C	C	C	C	C	C	C	C	C	C
D	D	D	D	D	D	D	D	D	D	D	D
E	E	E	E	E	E	E	E	E	E	E	E

Doğru :.....
Yanlış :.....
Boş :.....
Puan : .....

Kültür Bölgelerinin Oluşumu ve Türk Kültürü

1. Kültürü insanların ortak yaşam tarzı olarak tanımlamak mümkündür.

Kültür ile ilgili olarak

I. Bir toplumun kültür özellikleri üzerinde doğal çevre etkili olmaktadır.
II. Kültür değişmez unsurlardan meydana gelmektedir.
III. Kültür nesilden nesile aktarılır bir yapıdadır.

verilen ifadelerden hangileri <u>söylenemez</u>?

A) Yalnız I
B) Yalnız II
C) I. ve II.
D) I. ve III.
E) II. ve III.

2. **Aşağıdakilerden hangisi kültürü oluşturan maddi unsurlardan biri <u>değildir</u>?**

A) Coğrafi konum B) Simgeler
C) Ahlak kuralları D) İklim özellikleri
E) Yer şekilleri

3. Orta Asya Türk Kültürü incelendiğinde bu kültürün oluşumunda göçebe yaşam tarzının etkili olduğu görülmektedir.

Türk kültüründe

I. Kervansaray
II. Çadır
III. Hamam
IV. At

verilen unsurlardan hangilerinin bulunması göçebe yaşam tarzını benimsediğine kanıt olarak gösterilebilir?

A) I. ve II. B) I. ve III. C) II. ve III.
D) II. ve IV. E) III. ve IV.

4. **Aşağıdakilerden hangisi Türk Kültürü'nün genel özellikleri arasında <u>gösterilemez</u>?**

A) Köklü bir kültür olması
B) Denizcilik faaliyetlerine ait izler taşıması
C) Dünya barışını ve insan sevgisini esas alması
D) Göçebe ve yerleşik yaşam tarzına ait unsurlar bulunması
E) Kültürü oluşturan unsurlar içerisinde dini simgelerin bulunmaması

5. Bir kültürün doğduğu yere kültür ocağı denir.

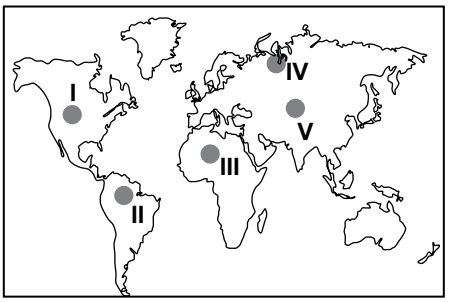

Buna göre Türklerin kültür ocağı haritada üzerinde numaralandırılmış yerlerin hangisinde verilmiştir?

A) I B) II C) III D) IV E) V

6. I. Tac Mahal
II. Galata Kulesi
III. Mostar Köprüsü
IV. Şirdar Medresesi
V. Kavalalı Mehmet Ali Paşa Camii

Yukarıdaki mimari eserlerden hangileri Türk Kültürü'nün simgeleri arasında <u>gösterilemez</u>?

A) I B) II C) III D) IV E) V

ÖLÇME, DEĞERLENDİRME VE SINAV HİZMETLERİ GENEL MÜDÜRLÜĞÜ

Kültür Bölgelerinin Oluşumu ve Türk Kültürü

7. Türkler yerleşik hayata geçtikten sonra pek çok mimari eserler yapmışlardır.

Aşağıdaki simgelerden hangisi Türklerin göçebe yaşam tarzından yerleşik hayata geçtiklerine kanıt olarak gösterilemez?

A) Hamam
B) Cami
C) Köprü
D) Kilim
E) Kervansaray

8. Araç, gereç, giysi gibi öğeler kültürü oluşturan maddi öğelerdir.

Buna göre aşağıdakilerden hangisi Türk kültürünü oluşturan maddi öğelere örnek olarak gösterilemez?

A) Köprüler
B) Görenekler
C) Yöresel kıyafetler
D) Sultan Ahmet Camii
E) Mevlana Türbesi

9. Orta Asya Türk Kültürü'nün simgeleri daha çok kilim, at, yay, çadır iken, Anadolu'da ise daha çok hanlar, hamamlar, medreseler, kervansaraylar, köprüler Türk Kültürü'nü simgeleyen unsurlar olmuştur.

Türk Kültürünü simgeleyen bu unsurların Orta Asya ile Anadolu'da farklılık göstermesi üzerinde aşağıda verilenlerden hangisi diğerlerine göre daha az etkili olmuştur?

A) Coğrafi konum
B) Yer şekilleri
C) İklim özellikleri
D) Ekonomik faaliyetler
E) Dil özellikleri

ÖLÇME, DEĞERLENDİRME VE SINAV HİZMETLERİ GENEL MÜDÜRLÜĞÜ

10. Türk kültürü yüzyıllarca köklü kültürlere komşuluk yapmış ve bu kültürlerle etkileşime girmiştir.

Aşağıdakilerden hangisi Türk Kültürü'nün etkileşimde bulunduğu kültürlerden biri değildir?

A) Çin kültürü
B) Maya kültürü
C) Bizans kültürü
D) Pers kültürü
E) Slav kültürü

11. Günümüzde kültürel etkileşim geçmiş dönemlere göre çok daha fazladır.

Bu durumun temel nedeni aşağıda verilenlerden hangisidir?

A) İletişim imkanlarının gelişmesi
B) Dünya nüfusunun hızla artması
C) Sanayi üretiminin artması
D) Kültürel çeşitliliğinin artması
E) Kültürel değişiminin yaşanması

12.

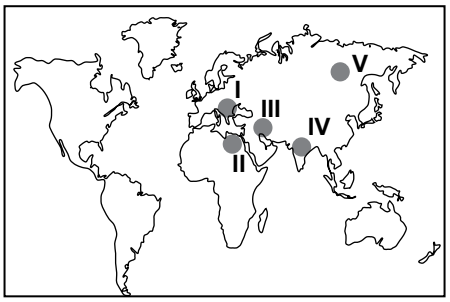

Harita üzerinde gösterilen yerlerin hangisinde Türk Kültürü'ne ait eserler görülmez?

A) I B) II C) III D) IV E) V

KAZANIM KAVRAMA TESTİ

Adı :.....
Soyadı :.....
Sınıf :.....
NO : .....

1	2	3	4	5	6	7	8	9	10	11	12
A	A	A	A	A	A	A	A	A	A	A	A
B	B	B	B	B	B	B	B	B	B	B	B
C	C	C	C	C	C	C	C	C	C	C	C
D	D	D	D	D	D	D	D	D	D	D	D
E	E	E	E	E	E	E	E	E	E	E	E

Doğru :.....
Yanlış :.....
Boş :.....
Puan : .....

Küresel Ticaret: Hammadde, Üretim, Pazar

1. Uluslararası sınırlar arasında yapılan mal ve hizmet ticaretine küresel ticaret denir. Küresel ticaret hammadde, üretim ve pazar unsurlarından oluşmaktadır. Bu unsurlar arasında sürekli bir etkileşim vardır.

Aşağıdakilerden hangisinin küresel ticaretin gelişmesi üzerinde etkili olduğu <u>söylenemez</u>?

A) Hammadde bölgeleri ile sanayi bölgelerinin birbirine yakın olmaması
B) Ülkeler arasında üretilen ürünlerin farklılık göstermesi
C) Nüfus artışına bağlı olarak tüketimin artış göstermesi
D) Devletler arasında sıcak çatışmaların yaşanması
E) İletişim teknolojilerinin hızla gelişmesi

2. Aşağıda verilen yerlerin hangisi diğerlerine göre daha fazla enerji tüketmektedir?

A) Rusya
B) Portekiz
C) Mısır
D) Moğolistan
E) İran

3.

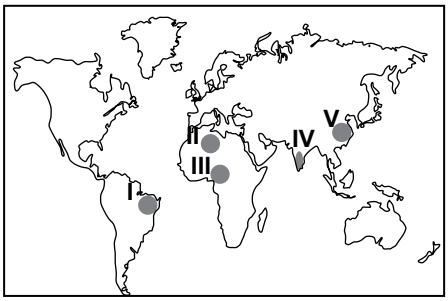

Sanayi tesislerinde kullanmak üzere işlenmemiş ya da yarı işlenmiş maddelere hammadde denir.

Haritada gösterilen yerlerin hangisi önemli tarımsal hammadde üretim alanlarından biri <u>değildir</u>?

A) I B) II C) III D) IV E) V

4.

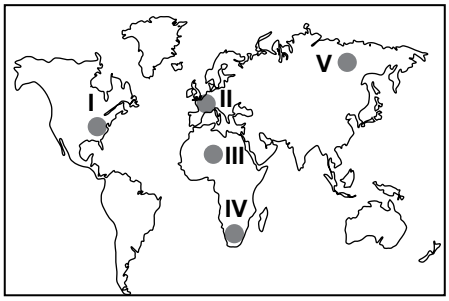

Ticaretin yoğunlaştığı bölgeler o bölgelerde bulunan ülkelerin gelişmişlik seviyelerine göre değişmektedir.

Buna göre haritada işaretli yerlerin hangi ikisi arasındaki ticaret kapasitesi diğerlerine göre daha fazladır?

A) I. ve II.
B) I. ve III.
C) III. ve IV.
D) II. ve IV
E) III. ve V

5. Hammadde, üretim ve pazar unsurları arasındaki ilişki dikkate alındığında aşağıdakilerden hangisi <u>söylenemez</u>?

A) Sanayi üretiminin artması doğal kaynak tüketimini hızlandırmıştır.
B) Hammaddelerin sanayi üretim alanlarına taşınması başka bir ekonomik faaliyetin doğmasına ortam hazırlamıştır.
C) Ulaşım sistemlerindeki teknolojik gelişmeler, ülkeler arasında ticaretin gelişmesini sağlamıştır.
D) Üretim faaliyetlerinin yoğun olması ülkelerin gelişimini yavaşlatmaktadır.
E) Üretim faaliyetleri tüketim noktalarının isteklerine göre şekillenmektedir.

ÖLÇME, DEĞERLENDİRME VE SINAV HİZMETLERİ GENEL MÜDÜRLÜĞÜ

Küresel Ticaret: Hammadde, Üretim, Pazar

6.

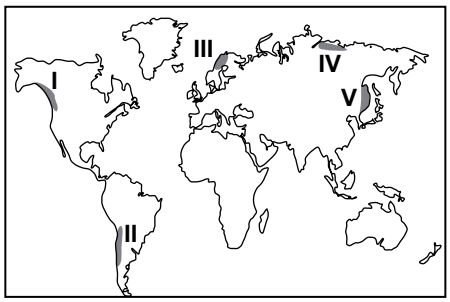

Yukarıdaki haritada numaralandırılarak verilen yerlerin hangisinde balıkçılık faaliyetleri diğerlerine göre <u>daha az</u> yapılmaktadır?

A) I B) II C) III D) IV E) V

7. • Batı Avrupa
• Kuzey Amerika
• Güneydoğu Asya

Bu yerlerde ticari faaliyetlerin yoğun olması üzerinde

I. pazar imkanlarının gelişmiş olması
II. ulaşım imkanlarının yeterli olması
III. üretim ve tüketim faalietlerinin yoğun olması

verilenlerden hangileri etkili olmuştur ?

A) Yalnız I

B) Yalnız II

C) I. ve II.

D) II. ve III.

E) I., II. ve III.

8. Hammaddeler çeşitlenen imalat kolları ve artan kapasiteye bağlı olarak imalat sanayi tarafından hızla tüketilmektedir.

Bu durumun sonuçları olarak aşağıdakilerden hangisi <u>gösterilemez</u>?

A) Doğal kaynak tüketiminin artış göstermesi
B) Ulaşım faaliyetlerin hız kazanması
C) Ticari faaliyetlerin yoğunlaşması
D) İhtiyaçlara kolay ulaşılabilmesi
E) Nüfus artış hızının düşmesi

9. Aşağıdakilerden hangisi Dünya sanayi üretim alanları içerisinde <u>gösterilemez</u>?

A) Rusya Federasyonu
B) Güneydoğu Asya
C) Amazon Havzası
D) Kuzey Avrupa
E) Almanya

10. Dünya genelinde markalaşmış büyük firmalar üretim merkezlerini Çin ve Hindistan gibi ülkelerin çevrelerinde kurmaktadırlar.

Bu durumun <u>temel nedeni</u> aşağıdakilerden hangisidir?

A) Enerji kaynağına yakınlık
B) İş gücüne yakınlık
C) Hammaddeye yakınlık
D) Pazar alanlarına yakınlık
E) Ulaşım yollarına yakınlık

ÖLÇME, DEĞERLENDİRME VE SINAV HİZMETLERİ GENEL MÜDÜRLÜĞÜ

KAZANIM KAVRAMA TESTİ

Adı :.....
Soyadı :.....
Sınıf :.....
NO : .....

1	2	3	4	5	6	7	8	9	10	11	12
A	A	A	A	A	A	A	A	A	A	A	A
B	B	B	B	B	B	B	B	B	B	B	B
C	C	C	C	C	C	C	C	C	C	C	C
D	D	D	D	D	D	D	D	D	D	D	D
E	E	E	E	E	E	E	E	E	E	E	E

Doğru :.....
Yanlış :.....
Boş :.....
Puan : .....

Dünya'nın Hızla Gelişen Endüstrisi: Turizm

1. İskandinav Yarımadası üzerinde bulunan ülkelerde mayıs ayının son haftasında 24 saate yakın gündüz süresi yaşanır. Ağustos ayının sonlarına doğru ise geceler yarı aydınlık geçer. Beyaz gecelerde İskandinav ülkelerini, günü doyasıya yaşamanın coşkusu sarar. Buna bağlı olarak bu ülkelerde şölenler, festivaller düzenlenir.

Bu durum turizm faaliyetleri üzerinde etkili olan faktörlerden hangisine örnek olarak gösterilebilir?

A) Çevresel etkiler
B) Politik etkiler
C) Sosyal etkiler
D) Ekonomik etkiler
E) Kültürel etkiler

2.
- Dünya'nın ilk ve en eski milli parkıdır.
- Boz ayılar, kurtlar ve bizonlar olmak üzere birçok canlı için doğal yaşam alanıdır.
- Dünya'nın en büyük gayzerlerine ev sahipliği yapmaktadır.

Yukarıda bazı özellikleri verilen milli park aşağıdakilerden hangisidir?

A) Serengetti
B) Ihlara vadisi
C) Yosemite
D) Yellowstone
E) Manyas kuş cenneti

3. Bu yıl İstanbul Kitap Fuarı'nın 25. yılı kutlandı. Edebiyat ve kültür alanında 225 etkinlik düzenlendi. 800'e yakın yazar, sanatçı, bilim insanı, gazeteci ve politikacı kitapseverlerle buluşma imkânı buldu. Fuar'a ayrıca Almanya, Amerika Birleşik Devletleri, Avusturya ve daha birçok ülkeden yayınevleri ve yayıncılar birliği temsilcileri katıldı.

Bu haber insanları turizm faaliyetlerine yönelten faktörlerden hangisine örnek olarak gösterilebilir?

A) Doğal güzellikleri görme
B) Sportif aktivitelere katılma
C) Eğitim imkanlarını keşfetme
D) Kongre ve sempozyumlara katılma
E) Tarihi ve kültürel değerleri görme

ÖLÇME, DEĞERLENDİRME VE SINAV HİZMETLERİ GENEL MÜDÜRLÜĞÜ

4. Aşağıdaki tabloda, Dünya Turizm Örgütü'nün 2007 yılı verilerine göre bazı ülkelere gelen turist sayısı, turizm geliri ve bunların Dünya genelindeki payları verilmiştir.

Ülke	Gelen turist sayısı (milyon kişi)	Dünya'daki payı (%)	Turizm Geliri (milyar dolar)	Dünya'daki payı(%)
Fransa	81,9	9,1	54,2	6,3
İspanya	59,2	6,6	57,8	6,8
ABD	56,0	6,2	96,7	11,3
Çin	54,7	6,1	41,9	4,9
Türkiye	22,2	2,5	18,5	2,2

Tablodaki bilgilere bakılarak aşağıdakilerden hangisi <u>kesin</u> olarak söylenir?

A) Türkiye'de deniz turizmi gelişmiştir.
B) Türkiye'nin turizm gelirleri İspanya'dan fazladır.
C) Turist başına düşen turizm geliri en fazla olan ülke Fransa'dır.
D) Kişi başına düşen turizm gelirleri ülkelere göre değişmektedir.
E) ABD'nin turizm geliri, İspanya ve Çin'in turizm gelirlerinin toplamından fazladır.

5. İklim ve yer şekillerinin turizm faaliyetleri üzerindeki etkisi dikkate alındığında, aşağıdaki ülkelerden hangisinde kış turizminin diğerlerine göre <u>daha az</u> gelişmesi beklenir?

A) ABD
B) Mısır
C) Fransa
D) Türkiye
E) Norveç

6. Turizm faaliyetlerinin ekonomik, politik, kültürel ve çevresel etkileri bulunmaktadır.

Aşağıda verilenlerden hangisi turizmin kültürel etkisine örnektir?

A) Ülkenin kalkınması için gerekli kaynağı sağlaması
B) Alt yapı ve üst yapının iyileşmesini sağlaması
C) İstihdam sağlayarak işsizliği azaltması
D) Ülkelerin ödemeler dengesini sağlaması
E) Farklı yaşam tarzlarının keşfedilmesi

Dünya'nın Hızla Gelişen Endüstrisi: Turizm

7. Turizm faaliyetleri birçok ekonomik faaliyetin gelişmesinde etkili olur.

Bir yerde turizm faaliyetlerinin gelişmesi, aşağıdaki alanlardan hangisinin gelişmesine diğerlerine göre daha az katkı sağlar?

A) Tüketim
B) Ulaşım
C) Tarım
D) Konaklama
E) Ticaret

8. Aşağıdaki tablo, bir ülkenin 2000 - 2004 yılları arasında yurtdışına giden ve yurtdışından gelen turist sayılarını göstermektedir.

Yıllar	Yurt dışına giden	Yurt dışından gelen
2000	5 milyon kişi	7 milyon kişi
2001	3,7 milyon kişi	6,6 milyon kişi
2002	3,5 milyon kişi	6,9 milyon kişi
2003	4 milyon kişi	8 milyon kişi
2004	4 milyon kişi	7,2 milyon kişi

Yalnızca tablodaki veriler dikkate alındığında verilen yıllarda bu ülkeyle ilgili aşağıdakilerden hangisine ulaşılamaz?

A) Verilen yıllar içerisinde gelen turist sayısına
B) Turizm gelirinin en fazla hangi yıl olduğuna
C) Verilen yıllar içerisinde yurtdışına giden turist sayısı na
D) Yurtdışına giden turist sayısının yıllara göre değişimine
E) Yurtdışına giden ve yurtdışından gelen turist sayıları arasındaki farka

ÖLÇME, DEĞERLENDİRME VE SINAV HİZMETLERİ GENEL MÜDÜRLÜĞÜ

9. **Aşağıdakilerden hangisi Türkiye'nin turistik önem taşıyan doğal unsurlarından biridir?**

A) Peribacaları
B) Ayasofya Müzesi
C) Aspendos Tiyatrosu
D) Efes Antik Kenti
E) Safranbolu evleri

10. I. Artemis Tapınağı
II. Babil'in Asma Bahçeleri
III. Zeus Heykeli
IV. Kral Mozoles'in Mezarı
V. İskenderiye Feneri
VI. Keops Pramidi
VII. Rodos Heykeli

Yukarıda Dünya'nın yedi harikası adı verilen turistik mekanlar verilmiştir.

Anadolu Yarımadası üzerinde bu eserlerden hangilerine ait kalıntılar bulunmaktadır?

A) III. ve VII.
B) II. ve IV.
C) I. ve IV.
D) IV. ve V.
E) VI. ve VII.

11. **Aşağıda verilen ülkelerin hangisinde bulunan milli park sayısı diğerlerine göre daha fazladır?**

A) Amerika Birleşik Devletleri
B) Birleşik Krallık
C) Hindistan
D) Rusya
E) Çin

Ülkeleri Tanıyalım - I

1. Japonya'da sanayi tesisleri genellikle deniz kıyılarında kurulmuştur.

Bu durumun <u>temel sebebi</u> olarak aşağıdakilerden hangisi gösterilir?

A) Nüfus özellikleri
B) Yer şekilleri özellikleri
C) Dış ticaret hacminin fazla olması
D) Deniz ulaşımının gelişmiş olması
E) Nükleer enerji üretiminin yapılması

2. **Sanayi devrimi ilk olarak hangi ülkede ve hangi alanda yaşanmıştır?**

A) Rusya - Demir-çelik
B) Japonya - Otomotiv
C) İngiltere - Dokuma
D) Çin - Ferrokrom
E) İsviçre - Silah

3. Japonya yer şekilleri bakımından oldukça dağlık ve engebeli bir ülkedir.

Bu durum Japonya'da aşağıdakilerden hangisini olumlu yönde etkilemiştir?

A) Yerleşme faaliyetlerini
B) Tarım arazilerini
C) Akarsu ulaşımını
D) Kara yolu ulaşımını
E) Akarsuların enerji potansiyelini

4. **İngiltere'de yıllık yağış miktarının fazla olmasının <u>temel nedeni</u> olarak aşağıdakilerden hangisi gösterilir?**

A) Okyanus akıntıları
B) Ortalama yükselti
C) Batı rüzgarları
D) Yer şekilleri
E) Bitki örtüsü

5. Japonya balık üretiminde Dünya'nın önde gelen ülkelerinden biridir.

Bu durum üzerinde aşağıdakilerden hangisinin etkili olduğu söylenemez?

A) Deniz turizminin gelişmiş olması
B) Açık deniz balıkçılığının gelişmiş olması
C) Kıyılarında balık popülasyonunun fazla olması
D) Balık depolama ve ulaştırma tekniklerinin fazla olması
E) Balıkçı teknelerinin teknolojik donanımlarının gelişmiş olması

6. I. Kömür ve demir yataklarına sahip olması
II. Ada ülkesi olması sebebiyle siyasi çatışmalardan uzak olması
III. Ilıman okyanusal iklim tipinin hakim olması

Sanayi Devrimi'nin öncelikle İngiltere'de yaşanmasının sebepleri arasında yukarıda verilenlerden hangileri <u>gösterilemez</u>?

A) Yalnız I
B) Yalnız II
C) Yalnız III
D) I. ve II.
E) II. ve III.

ÖLÇME, DEĞERLENDİRME VE SINAV HİZMETLERİ GENEL MÜDÜRLÜĞÜ

Ülkeleri Tanıyalım İngiltere - Japonya

7. Japonya nüfusunun %99,4'ünü japonlar oluşturmaktadır. Bir çok ülkenin etnik yapısı Japonya'ya göre daha fazla çeşitlilik göstermektedir.

Bu durumun nedeni olarak verilenlerden hangisi gösterilir?

A) İklim özellikleri
B) Ada ülkesi olması
C) Deprem bölgesi olması
D) Bitki örtüsü özellikleri
D) Teknolojik gelişmelerin yaşanması

8. I. Sömürgesi durumunda olan ülkelerin yer altı kaynaklarının zengin olması

II. İngiltere'den dokumacılıkta kullanılan makinelerin ithal edilmesi

III. Orman alanlarının geniş yer kaplaması

Fransa'da sanayi faaliyetlerinin gelişmesinin nedenleri arasında yukarıda verilenlerden hangileri gösterilir?

A) Yalnız I
B) Yalnız II
C) I ve II
D) I ve III
E) II ve III

9. **Dış ticaretinde hammadde ürünlerinin ithalatı fazla ve ihraç ettiği ürünler içerisinde mamül maddelerin oranının fazla olduğu bir ülke hakkında aşağıdakilerden hangisi kesin olarak söylenir?**

A) Enerji tüketimi azdır.
B) Tarım arazilerinin verimliliği düşüktür.
C) Sanayi faaliyetleri gelişmiştir.
D) Yer altı kaynakları bakımından zengindir.
E) Turizm gelirleri yüksektir.

10. Bazı ülkelerde uygulanan tarım politikaları ülke ihtiyacını karşılamaktan daha çok ihracat gelirlerini arttırmaya yönelik yapılmaktadır.

Aşağıdakilerden hangisi bu ülklere örnek olarak <u>gösterilemez</u>?

A) ABD
B) Mısır
C) Hollanda
D) Fransa
E) İtalya

11. **İtalya'da hakim olan iklim tipi aşağıdakilerden hangisidir?**

A) Muson iklimi
B) Akdeniz klimi
C) Karasal iklim
D) Subtropikal iklim
E) Ilıman okyanusal iklim

12. Fransa'da bulunan akarsuların ağız kısımlarında haliç oluşumu görülmektedir.

Bu durumun sebebi olarak aşağıdakilerden hangisi gösterilir?

A) Akarsuların akış hızının fazla olması
B) Kıyılarında gel-git genliğinin geniş olması
C) Ülke genelinde iklim çeşitliliğin fazla olması
D) Bitki örtüsünün çeşitlilik göstermesi
E) Orman alanlarının geniş yer kaplaması

ÖLÇME, DEĞERLENDİRME VE SINAV HİZMETLERİ GENEL MÜDÜRLÜĞÜ

KAZANIM KAVRAMA TESTİ

Adı :.....
Soyadı :.....
Sınıf :.....
NO : .....

1	2	3	4	5	6	7	8	9	10	11	12
A	A	A	A	A	A	A	A	A	A	A	A
B	B	B	B	B	B	B	B	B	B	B	B
C	C	C	C	C	C	C	C	C	C	C	C
D	D	D	D	D	D	D	D	D	D	D	D
E	E	E	E	E	E	E	E	E	E	E	E

Doğru :.....
Yanlış :.....
Boş :.....
Puan : .....

Ülkeleri Tanıyalım - II

1. Hindistan genel olarak tarım ülkesi olarak bilinir. İklim özellikleri ve tarıma alverişli alanların varlığı Hinistan'da tarım faaliyetlerinin yoğun olmasında etkili olmuştur. Ancak Hollanda'nın tarım arazilerinden birim alanda alınan verim Hindistan'dan daha fazladır.

Bu durumun <u>temel sebebi</u> aşağıdakilerden hangisidir?

A) Uygulanan tarım teknikleri
B) Tarım arazilerinin genişliği
C) Pazar alanlarına yakınlık
D) Sanayi Faaliyetleri
E) Su kaynakları

2. Hindistan tarımda verimi artırmak için Malezya ve Endonezya'dan çeltik tohumları, Meksika'dan buğday tohumları ithal etmiştir.

Bu durum Hindistan'daki tarım faaliyetleri ile ilgili olarak aşağıdakilerden hangisinin yetersiz olduğunu gösterir?

A) Toprak analizi
B) Gübreleme
C) Sulama
D) Tohum ıslahı
E) Makineleşme

3. Bazı ülkelerin dış ihracatında bazı tarım ürünleri önemli bir paya sahiptir.

Buna göre;

I. Brezilya - Muz
II. Türkiye - Fındık
III. Hollanda - Çay
IV. İngiltere - Pamuk

numaralandırılarak verilen ülke ve tarım ürünü eşleştirmelerinden hangileri bu duruma örnek olarak <u>gösterilemez</u>?

A) I ve II
B) I ve III
C) II ve III
D) II ve IV
E) III ve IV

4. Birleşmiş Milletler'in yaptığı bir araştırmaya göre Hindistan tarım tekniklerini Hollanda düzeyine çıkarabilirse mevcut buğday üretimini beş kat artırabilir . Bu da Dünya'nın yıllık buğday ihtiyacının iki katına karşılık gelmektedir.

Hindistan'ın tarımsal verimlilikte istenilen seviyede olmaması üzerinde;

I. Makine kullanımının yetersiz olması
II. Su kaynaklarının yetersiz olması
III. Nadasa ayrılan tarım alanlarının fazla olması

verilenlerden hangileri etkili olmuştur?

A) Yalnız I
B) Yalnız II
C) I ve II
D) I ve III
E) II ve III

5. Tarımsal faaliyetler ülkelerin gelişmişlik düzeyine göre farklılık göstermektedir. Bazı ülkeler geleneksel tarım yöntemlerini geliştirme konusunda yetersizdir. Bu ülkeler tarımsal üretimi daha çok temel ihiyaçlarını karşılamak için yapmaktadırlar.

Bu ülkelere örnek olarak aşağıdakilerden hangisi <u>gösterilemez</u>?

A) Kenya
B) Pakistan
C) Somali
D) Gana
E) İtalya

6. Fransa'nın ihracatında aşağıda verilen alanların hangisinin payı diğerlerine göre daha azdır?

A) Otomotiv sanayisi
B) Demir-çelik sanayisi
C) Tekstil sanayisi
D) Makine sanayisi
E) Şeker sanayisi

ÖLÇME, DEĞERLENDİRME VE SINAV HİZMETLERİ GENEL MÜDÜRLÜĞÜ

Ülkeleri Tanıyalım - II

7. Hindistan, Dünya pirinç üretiminde önemli bir paya sahip olmasına rağmen bazı yıllarda pirinç ithal etmektedir.

Bu durumun temel nedeni olarak;

I. tarımsal üretimin doğal çevre koşullarına bağlı olması,
II. pirinç ithalatının daha ucuz olması,
III. halkın temel besin kaynağı olması

numaralandırılarak verilenlerden hangileri gösterilebilir?

A) Yalnız I
B) Yalnız II
C) I ve II
D) I ve III
E) II ve III

8. I. Topraklarının yarıdan fazlası deniz seviyesinin altındadır. Ülke ihracatının % 25'i tarımsal ürünlerden oluşmaktadır. Önemli süt, peynir ve tereyağı üreticisidir.

II. Akdeniz iklim bölgesi içerisinde yer alan bu ülke, Dünya'nın en çok üzüm ihraç eden ülkesi konumundadır. Ülkenin en önemli tarım alanları Po Ovası üzerinde bulunmaktadır.

Yukarıda numaralandırılarak özellikleri verilen ülkeler hangisinde doğru verilmiştir?

	I	II
A)	Fransa	Almanya
B)	Kanada	Rusya
C)	Hollanda	İtalya
D)	Fransa	Çin
E)	Almanya	Arjantin

9. Aşağıdaki ülkelerden hangisinin toplam tarım alanlarının yüzölçümü diğerlerine göre daha azdır?

A) Çin
B) ABD
C) Kazakistan
D) Endonezya
E) Brezilya

10. Küçükbaş hayvan ihracatında aşağıdaki ülkelerin hangisinin payı diğerlerine göre daha fazladır?

A) Türkiye
B) Avustralya
C) Madagaskar
D) İtalya
E) Portekiz

11. Az gelişmiş ülkelerde aktif nüfus içerisinde tarım sektöründe çalışanların oranı diğer sektörlere göre daha yüksektir.

Aşağıdaki ülkelerin hangisinde aktif nüfus içerisinde tarım sektöründe çalışan nüfus oranı diğerlerine göre daha azdır?

A) Özbekistan
B) Kuveyt
C) Etiyopya
D) Gine
E) Nepal

ÖLÇME, DEĞERLENDİRME VE SINAV HİZMETLERİ GENEL MÜDÜRLÜĞÜ

KAZANIM KAVRAMA TESTİ

Adı :.....
Soyadı :.....
Sınıf :.....
NO : .....

1	2	3	4	5	6	7	8	9	10	11	12
A	A	A	A	A	A	A	A	A	A	A	A
B	B	B	B	B	B	B	B	B	B	B	B
C	C	C	C	C	C	C	C	C	C	C	C
D	D	D	D	D	D	D	D	D	D	D	D
E	E	E	E	E	E	E	E	E	E	E	E

Doğru :.....
Yanlış :.....
Boş :.....
Puan : .....

Doğal Kaynaklar ve Çevre

1. Doğal kaynakların ekonomik değer kazanması insanların ekonomik faaliyetleri içerisinde kullanılmasına bağlıdır. İnsanlık tarihi boyunca yapılan icatlar bazen yeni bir doğal kaynağın ekonomik açıdan değer kazanmasına neden olmuştur.

Aşağıda verilen doğal kaynak ve bu doğal kaynağın ekonomik değerinin artmasına neden olay eşleştirmelerinden hangisi <u>yanlıştır</u>?

A) Kömür – yüksek ısılı fırınların icadı
B) Petrol – içten yanmalı motorların icadı
C) Dalga – buhar makinelerinin icadı
D) Toprak – tarımsal üretime başlanması
E) Uranyum – atom enerjisinin keşfedilmesi

2. **Doğal kaynakların ekonomik değerinin artmasında aşağıdakilerden hangisi etkili <u>olmamıştır</u>?**

A) İnsanların ihtiyaçlarının çeşitlenmesi
B) Kaynakların kullanım alanlarının çeşitlenmesi
C) Dünya nüfusunun hızlı bir şekilde artış göstermesi
D) Doğal kaynak kullanımının artış göstermesi
E) Bazı doğal kaynakların yenilenebilmesi

3. Japonya yer şekilleri engebeli ve düzlük alanları oldukça az olan bir ülkedir. Bu nedenle deniz alanlarından elde edilen arazi kullanımı oldukça yaygındır.

Bu bilgilere bakıldığında Japonya hakkında aşağıda verilenlerden hangisi <u>söylenemez</u>?

A) Yanlış arazi kullanımı yaygındır.
B) Akarsuların enerji potansiyeli yüksektir.
C) Yer şekillerinin gerçek alanı ile izdüşüm alanı arasında fark fazladır.
D) Doğal kaynaklarını kullanırken teknolojik gelişmelerden faydalanılmaktadır.
E) Doğal koşulların olumsuz etkilerinin azaltılması yönünde çalışmalar yapılmaktadır.

4. Termik santrallerde soğutma işlemleri için önemli miktarda su kullanılmaktadır. Kullanılan bu sulara bazı kimyasal maddeler karışmaktadır ve tekrardan yerüstü su kaynaklarına boşaltılmaktadır.

Buna göre;

I. tatlı su balıkçılığı
II. tarımsal üretim
III. nükleer enerji üretimi

verilen ekonomik faaliyetlerden hangileri bu durumdan olumsuz etkilenmektedir?

A) Yalnız I
B) Yalnız II
C) I ve II
D) I ve III
E) II ve III

5. I. Petrol
II. Toprak
III. Demir
IV. Akarsu

Verilen doğal kaynaklardan hangileri otomotiv sanayisine bağlı olarak diğerlerine göre daha fazla değer kazanmıştır?

A) I ve II
B) I ve III
C) II ve III
D) II ve IV
E) III ve IV

6. **Bir yerde termik santral kurulmasına bağlı olarak aşağıdakilerden hangisinin yaşanması <u>beklenemez</u>?**

A) Konut fiyatlarının artış göstermesi
B) Hava kirliliğinin artış göstermesi
C) Biyoçeşitliliğin artış göstermesi
D) Ticari faaliyetlerin gelişmesi
E) Dış göç alması

ÖLÇME, DEĞERLENDİRME VE SINAV HİZMETLERİ GENEL MÜDÜRLÜĞÜ

Doğal Kaynaklar ve Çevre

7. Hidroelektrik santraller, termik ve nükleer enerji santrallerine göre çevreye daha az zarar vermektedir. Ancak hidroelektrik santrallerin de çevreye bazı olumsuz etkileri bulunmaktadır.

Aşağıdakilerden hangisi hidroelektrik santrallerin olumsuz etkileri arasında gösterilemez?

A) Hidroelektrik santral çevresindeki karasal ekosistemlerde hayvan çeşitliliğinin değişime uğraması

B) Nehirlerin aşağı çığırlarındaki su ekosistemlerinde canlı çeşitlilil̆gin azalması

C) Nehir sularının kimyasal özelliklerinin değişime uğraması

D) Hidroelektrik santral çevresindeki yeraltı sularının değişime uğraması

E) Hidroelektrik santral çevresindeki tarım arazileri için su kaynağı oluşturması

8. **Doğal kaynak kullanımı ile ilgili olarak;**

I. eğimli yamaçlarda ağaçlandırma çalışmalarının yapılması,
II. mera alanlarının sürülerek tarım arazilerine dönüştürülmesi,
III. dere yataklarının doldurularak yerleşim alanlarına dönüştürülmesi

numaralandırılarak verilenlerden hangilerinin çevre sorunlarına neden olması beklenir?

A) Yalnız I
B) Yalnız II
C) I ve II
D) I ve III
E) II ve III

9. Doğal kaynakların kullanımında görülen yöntem ve teknolojik imkanlar, ülkelerin gelişmişlik seviyelerine göre değişiklik göstermektedir.

Aşağıda verilen ülkelerden hangisi doğal kaynaklarını diğerlerine göre daha verimli bir şekilde kullanmaktadır?

A) Hindistan
B) Nijerya
C) İngiltere
D) Endonezya
E) Meksika

10. **Aşağıda verilen ülkelerin hangisi gelgit gücünden yararlanarak elektrik enerjisi üretmektedir?**

A) Mısır
B) İtalya
C) Fransa
D) Türkiye
E) Yunanistan

11. Orman tahribatının görüldüğü yerlerde çevresel sorunlar oluşmaktadır.

Aşağıda verilenlerden hangisi orman tahribatı sonucunda meydana gelecek çevresel sorunlar arasında gösterilemez?

A) Kuraklığın artması
B) Erozyonun artması
C) Taşkınların artması
D) Biyoçeşitliliğin azalması
E) Tarım arazilerinin azalması

ÖLÇME, DEĞERLENDİRME VE SINAV HİZMETLERİ GENEL MÜDÜRLÜĞÜ

KAZANIM KAVRAMA TESTİ

Adı :.....
Soyadı :.....
Sınıf :.....
NO : .....

1	2	3	4	5	6	7	8	9	10	11	12
A	A	A	A	A	A	A	A	A	A	A	A
B	B	B	B	B	B	B	B	B	B	B	B
C	C	C	C	C	C	C	C	C	C	C	C
D	D	D	D	D	D	D	D	D	D	D	D
E	E	E	E	E	E	E	E	E	E	E	E

Doğru :.....
Yanlış :.....
Boş :.....
Puan : .....

Çevre Sorunları

1. Fosil yakıtların tüketimiyle oluşan kükürtoksitler, sis tabakası içerisine karışarak yeryüzü üzerinde yoğun bir tabaka oluşturur. Bu şekilde oluşan hava kirliliğine Londra tipi hava kirliliği denir.

Aşağıda verilen yerlerin hangisinde bu tip hava kirliliğinin diğerlerine göre daha fazla oluşması beklenir?

A) İstanbul ve çevresi
B) Muğla ve çevresi
C) Yozgat ve çevresi
D) Sinop ve çevresi
E) Ardahan ve çevresi

2. Atık maddeleri hammadde olarak yeniden kullanmak için yapılan işlemlere geri dönüşüm adı verilmektedir. **Aşağıda verilenlerden hangisi geri dönüşümün yararları arasında <u>gösterilemez</u>?**

A) Hammadde tasarrufu sağlanır.
B) Doğal kaynaklar korunur.
C) Enerji tasarrufu sağlanır.
D) Tarımsal üretim miktarı artış gösterir.
E) Çevre kirliliğinde azalma görülür.

3. **Aşağıda verilen durumların hangisi üzerinde küresel ısınmanın etkili olduğu <u>söylenemez</u>?**

A) Kutup ayılarının beslenme sıkıntısı yaşamaları
B) Deprem olaylarının artış göstermesi
C) Deniz seviyelerinin yükselmesi
D) Kurak alanların genişlemesi
E) Buzul alanlarının azalması

4.

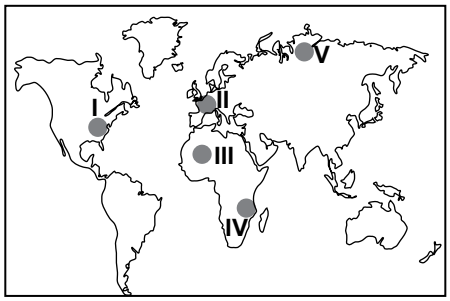

Harita üzerinde numaralandırılarak verilen yerlerin hangilerinde sanayi faaliyetlerine bağlı olarak hava kirliliğinin diğerlerine göre daha fazla olması beklenir?

A) I ve II B) II ve III C) II ve IV
D) I ve V E) IV ve V

5. **Aşağıdakilerden hangisi beşeri atıkların doğal çevre üzerindeki olumsuz etkisine örnek olarak <u>gösterilemez</u>?**

A) Orman yangınlarının artış göstermesi
B) Fosil yakıt kullanımın artış göstermesi
C) Yeraltı sularının kimyasal yapılarının bozulması
D) Atmosfer içerisinde rahatsız edici kokuların oluşması
E) Atmosfer içerisindeki parçacık maddelerin artış göstermesi

6. Harita üzerinde zengin orman alanlarına sahip bölgelerden bazıları verilmiştir.

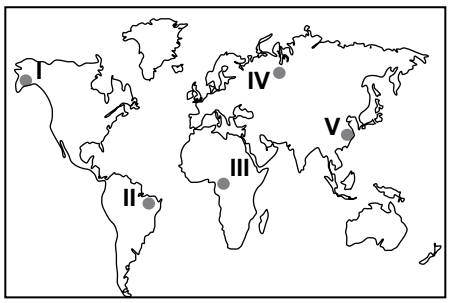

Bu yerlerin hangisi sanayi faaliyetlerine bağlı olarak diğerlerine göre daha fazla zarar görmektedir?

A) I B) II C) III D) IV E) V

ÖLÇME, DEĞERLENDİRME VE SINAV HİZMETLERİ GENEL MÜDÜRLÜĞÜ

Çevre Sorunları

7. Sanayi tesislerinin yer seçimi yapılırken, bu tesisinin doğal çevreye olan etkileri araştırılmalı ve buna göre bir tercih yapılmalıdır.

Bu çalışmalar yapılırken <u>öncelikle</u>;

I. hakim doğal bitki örtüsünün korunması,

II. hammaddenin en ucuz şekilde temin edilmesi,

III. sanayi atıklarının doğal kaynaklara zarar vermemesi

verilenlerden hangileri dikkate alınarak yer seçimi yapılmalıdır?

A) Yalnız I
B) Yalnız II
C) I ve II
D) I ve III
E) II ve III

8. Suyun atmosfer, litosfer ve hidrosfer arasındaki hal dönüşüm hareketine su döngüsü denir.

Su döngüsü üzerinde aşağıdakilerden hangisinin olumsuz etkisi olduğu <u>söylenemez</u>?

A) Yer altı sularının bilinçsiz kullanımı
B) Jeotermal suların ısınma amaçlı kullanımı
C) Sanayi atıklarının yüzey sularına karışması
D) Göller çevresinde beşeri faaliyetlerin çoğalması
E) Şehir alanlarının genişlemesine bağlı olarak toprak yüzeyinin betonla örtülmesi

9. Ormanların tahrip edilmesi çevre sorunlarının artmasına neden olmaktadır.

Aşağıdaki çevre sorunlarından hangisinin orman alanlarının tahrip edilmesine bağı olarak oluştuğu <u>söylenemez</u>?

A) Erozyonun artış göstermesi
B) Yeraltı su seviyesinin azalması
C) Bataklık alanların genişlemesi
D) Kurak alanların genişlemesi
E) Bazı canlıların yok olması

ÖLÇME, DEĞERLENDİRME VE SINAV HİZMETLERİ GENEL MÜDÜRLÜĞÜ

10. I. Hava kirliliğinin artış göstermesi
II. Küresel ısınmanın hızlanması
III. Akarsular içerisinde inorganik maddelerin birikmesi

Yukarıdakilerden hangileri gaz halindeki maddelerin oluşturduğu çevre sorunlarına örnek olarak <u>gösterilmez</u>?

A)Yalnız I B) Yalnız II C) Yalnız III
D) I ve II E) II ve III

11. **Sıvı beşeri atıkların hidrosfer üzerindeki etkisine örnek olarak;**

I. Orman yangınlarının artış göstermesi
II. Tatlı su kaynakları içerisinde ağır metallerin birikmesi
III. Su kaynakları içerisinde çözünmüş halde bulunan oksijen oranının değişmesi

verilenlerden hangileri <u>gösterilemez</u>?

A) Yalnız I
B) Yalnız II
C) Yalnız III
D) I ve II
E) II ve III

12. **Aşağıdakilerden hangisi atmosfer kirliliğine neden olan faktörler arasında <u>gösterilemez</u>?**

A) Evsel atıkların biriktirilmesi
B) Motorlu taşıt kullanımının artması
C) Sanayi üretiminin artış göstermesi
D) Fosil yakıt kullanımının yaygınlaşaması
E) Şehirler içerisinde yeşil alanlar oluşturulması

KAZANIM KAVRAMA TESTİ

Adı :.....
Soyadı :.....
Sınıf :.....
NO : .....

1	2	3	4	5	6	7	8	9	10	11	12
A	A	A	A	A	A	A	A	A	A	A	A
B	B	B	B	B	B	B	B	B	B	B	B
C	C	C	C	C	C	C	C	C	C	C	C
D	D	D	D	D	D	D	D	D	D	D	D
E	E	E	E	E	E	E	E	E	E	E	E

Doğru :.....
Yanlış :.....
Boş :.....
Puan : .....

CEVAP ANAHTARI

Test 1	1. B	2. B	3. A	4. E	5. A	6. C	7. C	8. D	9. D	10. E	11.D	12. A
Test 2	1. B	2. B	3.A	4. D	5. B	6. E	7. C	8.C	9. A	10. D	11. B	12.C
Test 3	1. C	2. C	3. E	4. D	5. E	6. B	7. E	8. B	9. A	10. D	11. A	12. B
Test 4	1. A	2. B	3. C	4. B	5. E	6. C	7. A	8. C	9. E	10. D	11. A	
Test 5	1.B	2. D	3.D	4.C	5.A	6.E	7.B	8. D	9.C	10.A	11.E	12.A
Test 6	1.E	2. D	3.A	4.A	5.C	6.D	7.D	8.E	9.C	10.C	11.B	12.E
Test 7	1.A	2. B	3.D	4.C	5.D	6.A	7.C	8.A	9.C	10.A	11.D	12.B
Test 8	1.C	2. C	3.E	4.E	5.C	6.D	7.C	8.D	9. D	10.E	11.C	12.C
Test 9	1.E	2. C	3.E	4.A	5.B	6.A	7.E	8.A	9.A	10.E	11.D	
Test 10	1.C	2. E	3.D	4.D	5.A	6.E	7.C	8.D	9.E	10.D	11.D	
Test 11	1.D	2. D	3.E	4.C	5.A	6.D	7.E	8.E	9.E	10.A	11.C	12.C
Test 12	1.D	2. E	3.A	4.C	5.B	6.C	7.B	8.D	9.E	10.D	11.B	12.E
Test 13	1.D	2. C	3.A	4.C	5.D	6.E	7.D	8. A	9.B	10.B	11.D	12.C
Test 14	1.C	2. E	3.E	4.B	5.A	6.D	7.C	8.B	9.C	10.E	11.A	
Test 15	1.C	2. E	3.E	4.E	5.E	6.D	7.A	8.B	9.A	10.C	11.E	12.D
Test 16	1.E	2 .D	3.D	4.A	5.E	6.A	7.C	8.A	9.B	10.A	11.A	12.B
Test 17	1.E	2. B	3. A	4. C	5. B	6. A	7. D	8. C	9. D	10. D	11.E	
Test 18	1. B	2. C	3.D	4. B	5. E	6. B	7. D	8.B	9. E	10. B	11. A	12.E
Test 19	1. D	2. A	3. B	4. A	5. D	6. D	7. E	8. E	9. C	10. B		
Test 20	1. A	2. D	3. E	4. D	5. B	6. E	7. C	8. B	9. A	10. C	11. A	
Test 21	1.B	2. C	3. E	4. C	5.A	6.C	7. B	8. C	9. A	10. B	11.B	12. B
Test 22	1.A	2. D	3.E	4.A	5. E	6. E	7. A	8.C	9. D	10. B	11.B	
Test 23	1. C	2. E	3. A	4. C	5. B	6.C	7. E	8. E	9. C	10. C	11. E	
Test 24	1. A	2. D	3. B	4. A	5. B	6. E	7. D	8. B	9. C	10. C	11. A	12. E